Nome do aluno:		
Turma:	Professora:	Data: / /

MATEMÁTICA

COMPOSIÇÃO E DECOMPOSIÇÃO DE NÚMEROS: REVISÃO

1. VEJA QUANTAS DEZENAS OU CENTENAS, VOCÊ CONSEGUE FORMAR COM AS QUANTIDADES MOSTRADAS ABAIXO. ESCREVA O RESULTADO NO QUADRO DE VALOR POSICIONAL (TAMBÉM CHAMADO DE QUADRO VALOR/LUGAR) :

SABENDO QUE:

1 UNIDADE	1 DEZENA= 10 UNIDADES	 1 CENTENA=10 DEZENAS=100 UNIDADES	 1 MILHAR=10 CENTENAS=1000 UNIDADES

EXEMPLO:

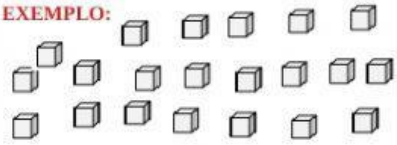

C	D	U
0	2	1

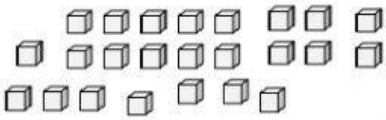

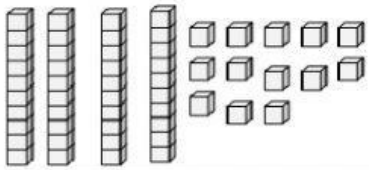



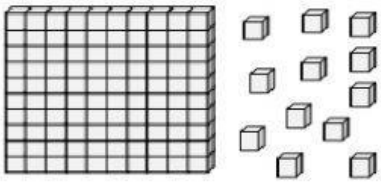



2. Decomponha os números em centenas, dezenas e unidades. Veja os exemplos:

93= 90+3= 9 dezenas+3 unidades

156= 100+50+6= 1 centena+5 dezenas+6 unidades

a) 46=

b) 28=

c) 137=

d) 129=

3. Qual o valor real dos algarismos em vermelho:

Exemplo: 1**9**5: 90 unidades ou 9 dezenas

a) 2**3**7:

b) **3**91:

c) 28**6**:

d) 3**4**9:

4. Resolva as operações matemática. Não esqueça do que você aprendeu sobre os principios de contagem:

25 +74	32 +65	45 -24	10 10 +10

LIVEWORKSHEETS