TRIGONOMETRÍA

TEOREMA DEL SENO Y DEL COSENO

Profesora: LORENA NUARA

1. Calcula en cada caso el valor de **x**:

Importante, escribe el resultado de x e y redondeado a 2 decimales, ejemplo 2,18.

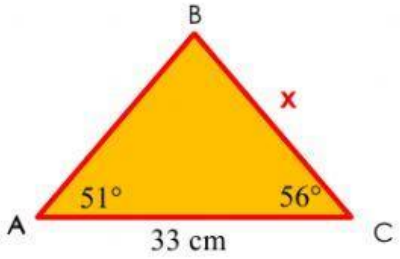

x = cm

2. Calcula el valor del ángulo β:

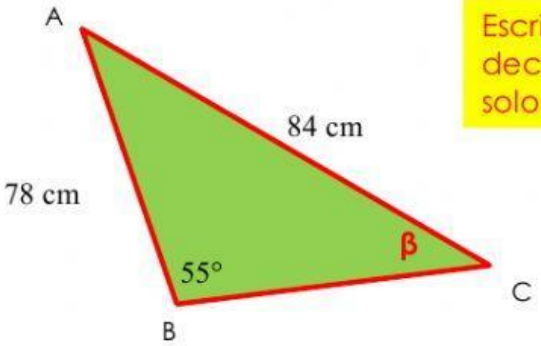

Escribe el resultado de β en grados, es decir, si te da como resultado 23° 16'56" solo escribe 23

β = °

1. Calcula en cada caso el valor de **x**:

Importante, escribe el resultado de x e y redondeado a 2 decimales, ejemplo 2,18.

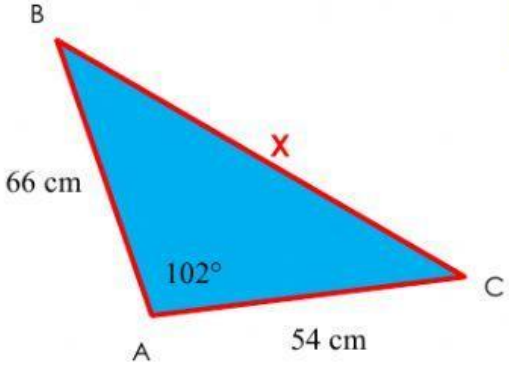

x = cm

LIVEWORKSHEETS