VOLUMEN DE PRISMAS Y CILINDROS

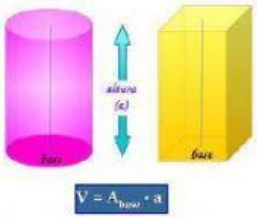

Nombre del alumno

I. Encuentra el volumen de los siguientes prismas y cilindros

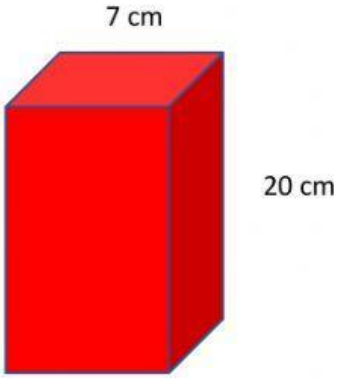

Área de la base _____ cm^2

Volumen= _____ cm^3

Recuerda que para encontrar el área de un triángulo usamos base por altura entre dos BH/2

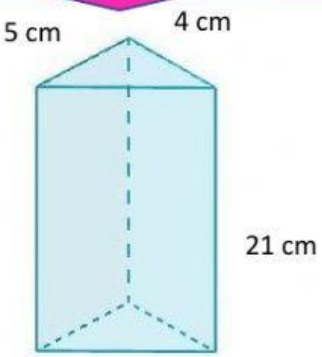

Área de la base _____ cm^2

Volumen= _____ cm^3

LIVEWORKSHEETS

Para estos problemas considera pi= 3.14
Y solo escribe 2 decimales en el resultado

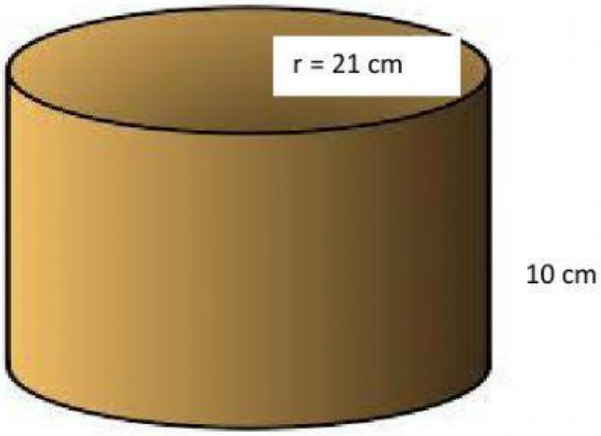

Área de la base _____ cm^2

Volumen de cilindro _____ cm^3

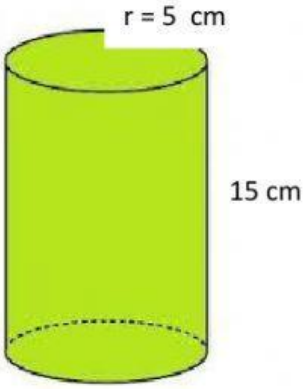

Área de la base _____ cm^2

Volumen de cilindro _____ cm^3

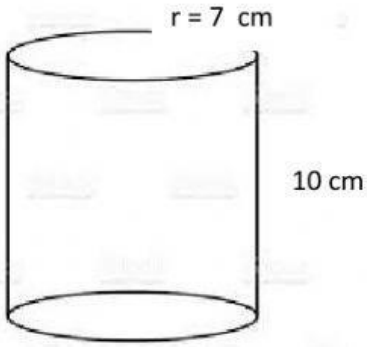

Área de la base _____ cm^2

Volumen de cilindro _____ cm^3

LIVEWORKSHEETS