**ESCUELA NORMAL SUPERIOR**
**"PROFR. MOISÉS SÁENZ GARZA"**
**MODALIDAD ESCOLARIZADA**
**Ciclo Escolar 2020-2021**

*Tema: Criterios de congruencia de los triángulos.*

**NOMBRE DEL ALUMNO (A)**

_____ **1º** _____

1. Analiza y contesta en la siguiente tabla marca con una "x" la respuesta correcta.

| ¿Son triángulos congruentes? | Si | No |
|---|---|---|
| 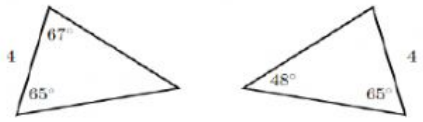  | | |
| 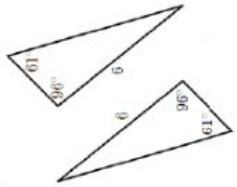  | | |
| 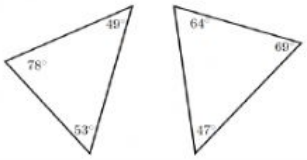  | | |

1. Relaciona las columnas, arrastrando dentro del cuadro correspondiente el criterio de cada concepto mostrado.

| | |
|---|---|
| | Dos triángulos son congruentes si sus lados correspondientes son congruentes: |

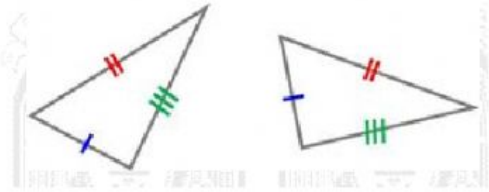

ALA

LIVEWORKSHEETS

Dos triángulos son congruentes si tienen dos lados correspondientes y el ángulo comprendido entre ellos congruentes.

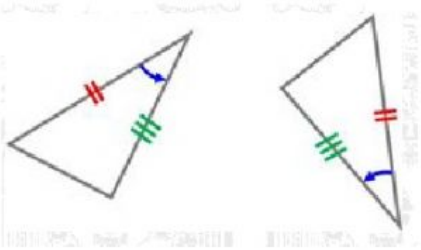

LAL

Dos triángulos son congruentes si tienen dos ángulos correspondientes y el lado comprendido entre ellos congruentes.

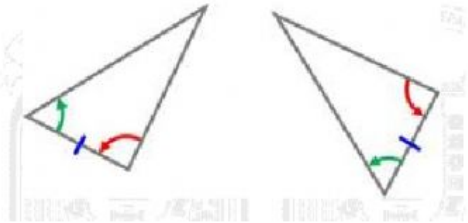

LLL

LIVEWORKSHEETS