Mi nombre es:

Fichas de matemática

Actividad de desarrollo:

1. **Uno con líneas las sustracciones y su respuesta.**



2. **Elijo la representación gráfica de la siguiente resta**

D	U
5	4
– 2	0
3	4

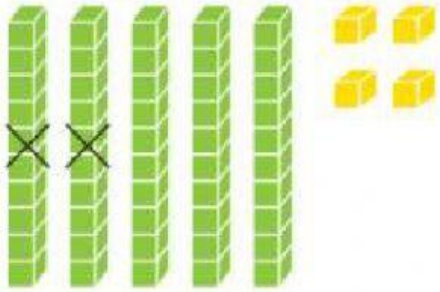



LIVEWORKSHEETS

3. Leo la situación y observo la gráfica para contestar las preguntas.

El padre de Amanda compró varios caramelos, pero ella decidió regalar a sus compañeros y compañeras de clase, porque su padre le había mencionado que debe ser solidaria y compartir lo que tiene con los demás.

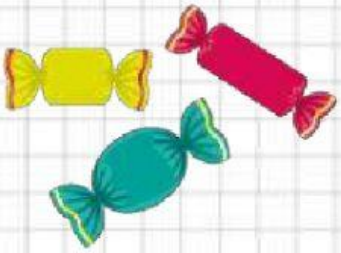

- **¿Cuántos caramelos compro el padre de Amanda?**

  .....

- **¿Cuántos caramelos regaló a sus compañeros y compañeras de clase?**

  .....

- **¿Cuántos caramelos le sobraron?**

  .....

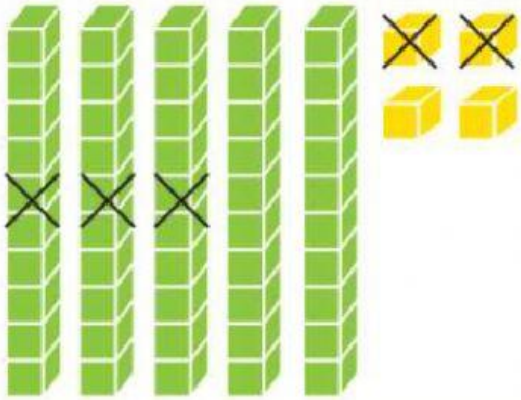

4. Leo la siguiente información:

Miguel tiene 48 vacas y decide regalar 15 de sus vacas a su hermana. ¿Cuántas vacas le queda?



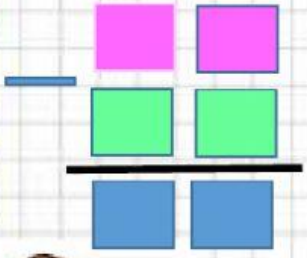

Respuesta:

LIVEWORKSHEETS