Nama : _____ Ting : _____

Sila tulis jawapan yang betul pada ruangan yang disediakan

Jenis hujan di Malaysia

(a) Hujan perolakan

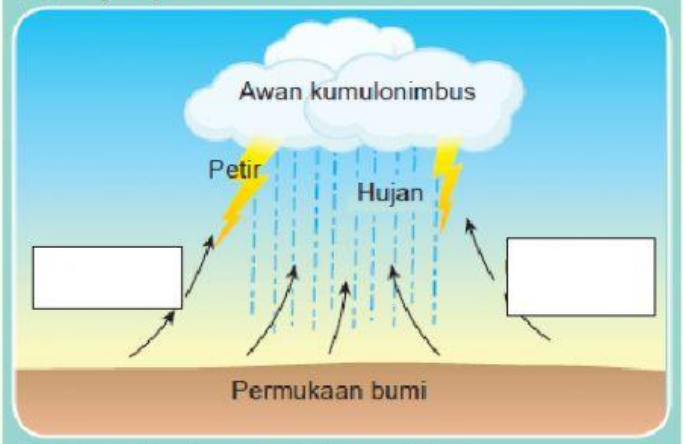

Rajah 4.1 *Pembentukan hujan perolakan*

- Permukaan bumi [ ] oleh pancaran matahari.
- Air tersejat dan membentuk [ ]
- Udara panas bersama-sama wap air naik ke [ ] sehingga sampai di paras yang tinggi.
- Udara menjadi sejuk dan wap air mengalami proses [ ] menjadi titisan air lalu membentuk awan [ ]
- Kebiasaannya, hujan lebat turun pada lewat petang disertai [ ]

(b) Hujan bukit

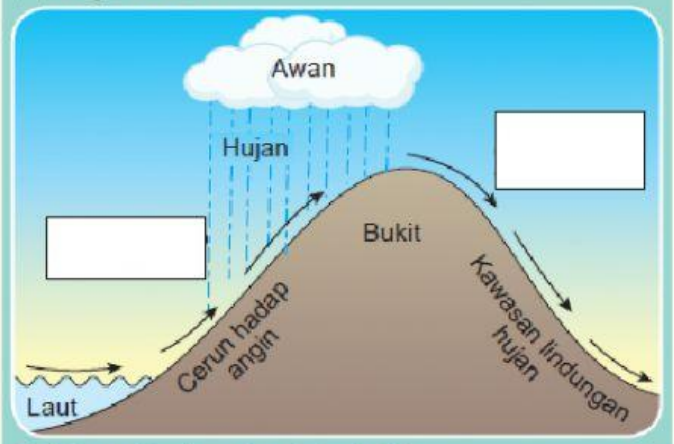

Rajah 4.2 *Pembentukan hujan bukit*

- Hujan bukit turun di kawasan tanah [ ] yang menghadap udara [ ].
- Udara lembap dari laut dipaksa naik ke cerun bukit kerana [ ] oleh tanah tinggi.
- Udara menjadi sejuk dan wap air mengalami proses pemeluwapan menjadi [ ] lalu membentuk awan.
- Hujan lebat turun di bahagian [ ] bukit yang menghadap udara lembap.
- Bahagian cerun yang terlindung menerima hujan yang sedikit dan dikenali sebagai kawasan [ ] hujan.

LIVEWORKSHEETS

(a) Angin monsun

Angin Monsun Timur Laut

- Bertiup dari awal bulan _____ hingga _____
- Bermula dari pedalaman Benua _____
- Bertiup merentasi _____ dan sampai di Malaysia sebagai angin Monsun Timur Laut.
- Membawa _____ ke pantai timur Semenanjung Malaysia, kawasan barat Sarawak serta pantai utara dan timur Sabah.

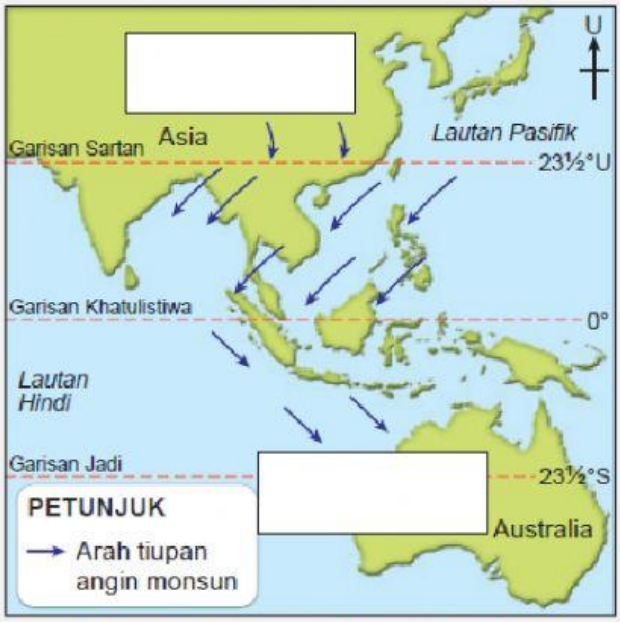

Peta 4.2 *Pembentukan angin Monsun Timur Laut*

Angin Monsun Barat Daya

- Bertiup dari pertengahan bulan _____ hingga akhir bulan _____
- Berasal dari Benua _____
- Bertiup merentasi _____ dan sampai di Malaysia sebagai angin Monsun Barat Daya.
- Membawa hujan yang sederhana lebat ke Malaysia kerana dihalang oleh tanah tinggi di _____ (Indonesia).

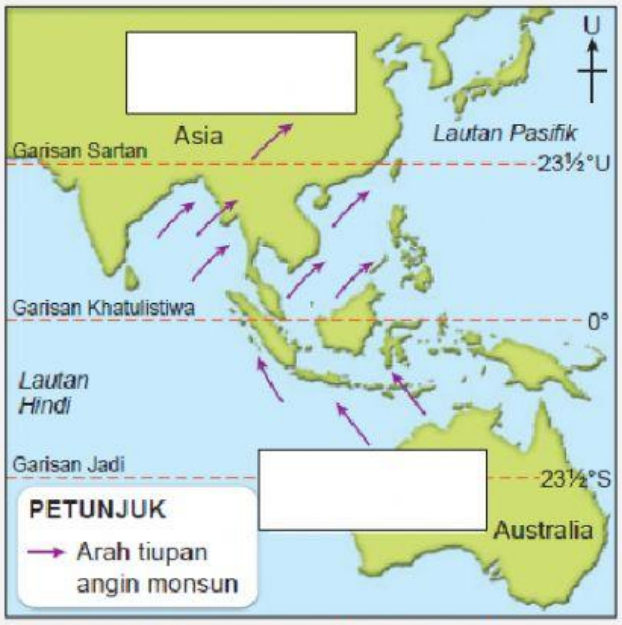

Peta 4.3 *Pembentukan angin Monsun Barat Daya*

LIVEWORKSHEETS