	Matemática – Profª. Ana Lucia Maia	
	Atividade Contínua **Data: 31 / 05 /2021**	
	Nome **6º ano**	

1) Arraste e cole o nome de cada tipo de reta:

Vertical	Horizontal	Oblíqua

2) Marque a resposta correta:

a. Retas que não têm nenhum ponto em comum, ou seja, nunca se cruzam são chamadas de:		
Concorrentes oblíquas	Concorrentes perpendiculares	Paralelas

b. Retas que se cruzam formando ângulos de 90º são chamadas de:		
Concorrentes oblíquas	Concorrentes perpendiculares	Paralelas

c. Retas que se cruzam formando ângulos agudos e obtusos, são chamadas de:		
Concorrentes oblíquas	Concorrentes perpendiculares	Paralelas

3) Arraste e cole o nome do ângulo de acordo com sua medida:

$\sphericalangle 90º$	$\sphericalangle 235º$	$\sphericalangle 23º$	$\sphericalangle 100º$	$\sphericalangle 180º$

Raso	Agudo	Reto	Côncavo	Obtuso

4) Marque a figura que **não** é classificada como polígono:

	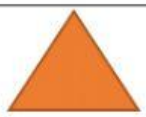		

LIVEWORKSHEETS

5) Marque apenas a imagem que possui apenas polígonos **não convexos:**

	

6) Marque apenas a imagem que representa **um polígono regular**:

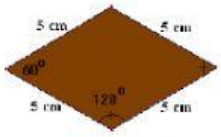	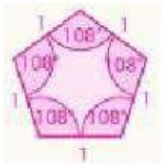	

LIVEWORKSHEETS