Тест по история изходно ниво

5. клас

LIVEWORKSHEETS

1. Кое събитие не е свързано правилно с годината?

- а) 681 – Покръстване
- б) 927 – Признание на царската титла на Петър
- в) 1018 – падане на България под византийска власт
- г) 1205 – битката при Одрин

LIVEWORKSHEETS

2. България попада под властта на Византия през 1018 г. Кой век е това?

LIVEWORKSHEETS

3. **Златен медальон на хан Омуртаг (814–831)**

Разгледай изображението, прочети текста и отговори на въпросите.

Медальонът е открит през XX в. във Велико Търново. Владетелят е представен със знаците на византийски император: корона, скиптър, мантия, закопчана на едното рамо. Около образа има надпис на гръцки език *„Кан ювиги Омуртаг“*. Смята се, че ханът е подарявал такива медальони на аристократи и заслужили военачалници при тържествени случаи.

1. Кога и къде е открит документът? _____

2. От какво изследователите са заключили, че образът е на хан Омуртаг?

_____

3. Каква е титлата на българския владетел и какво означава? _____

_____ Маркирай с цвят надписа върху изображението.

4. Защо надписът е на гръцки език? _____

_____

LIVEWORKSHEETS

4. В каква посока се намира Стара велика България според съвременна България на картата?
Кой е нейнният създател?
През кой век?

Древните българи и славяните преди Дунавска България (III–VII в.)

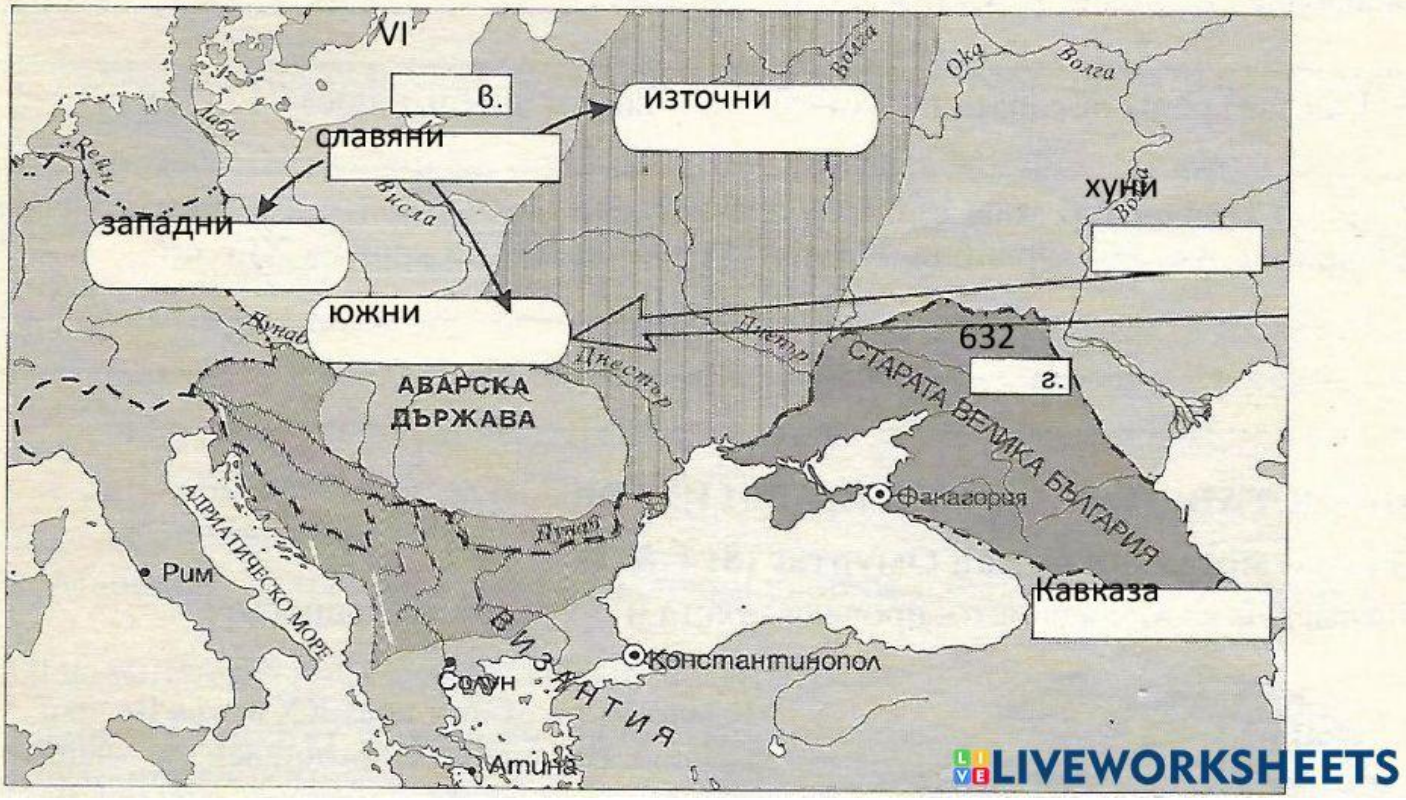

5 **Отношения на цар Калоян с Латинската империя**

В отговор на неговите пратеничества за дружба те (латините) му заповядали да се отнася с тях в грамотите си не като император към приятели, а като подчинен със своите господари. В противен случай го заплашвали, че ще вдигнат оръжие срещу него и ще опустошат подвластната му Мизия... Като гъст черен облак скитите (българите) нападали латините и не им давали възможност нито да разгънат конницата си, нито да избягат. Загинала най-добрата част от латинската войска, която била опитна да си служи с копия.

Из хроника от византийския историк Никита Хониат (средата на XII в.–1213 г.)



1. Кой е авторът на документа? _____
2. Съвременник ли е на събитията, които описва? _____
3. Към какви отношения с латините се стреми българският цар Калоян? _____ _____. Маркирай в цвят съответния израз.
4. Какъв е отговорът на латинските барони? Маркирай го в друг цвят.
5. Коя прочута битка е описана в хрониката? _____
Кога и къде се разиграва тази битка? _____
Какъв е изходът от нея? _____
_____
6. Със съдбата на кой владетел е свързано изображението? _____

LIVEWORKSHEETS

6 Кой български владетел описва текстът?

След смъртта на баща си той наследил престола на Търновското царство. Бил принуден да се признае за зависим владетел от османския султан Мурад I. Няколко години упорито се сражавал срещу османците около София. След превземането на Търново се укрепил в Никопол, но през 1395 г. бил пленен и убит по заповед на султан Баязид.

а) цар Иван Александър

б) цар Иван Шишман

в) цар Иван Срацимир

г) деспот Добротица

LIVEWORKSHEETS

7. Опишете изображението? Част от какъв паметник е? Кой е изобразен? Къде се намира сега?

LIVEWORKSHEETS

9. Опишете картината.
Кога е създадена?
Опишете човекът на картината.
Какъв е той?
Как е облечен?
Защо?
Какво държи?



Цар Симеон Велики – худ. Димитър Гюдженов - 1927

LIVEWORKSHEETS