Profesor: Marco Flores **Curso:** Física
Año: 3ero **Semana:** 1 2b
Tema: MRU **Fecha:** 25/05/2021

1) Calcula la rapidez media en el tramo A –B si el tiempo que demora en recorrer esta longitud es de 4 segundos.

a) 1 m/s
b) 2 m/s
c) 3 m/s
d 4 m/s
e) 5 m/s

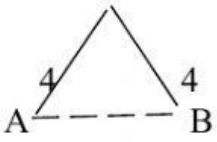

Un bote navega en aguas tranquilas avanzando en la dirección este 300 m, seguidamente, en la dirección norte 400 m. si el recorrido lo hace en 10 s calcular la velocidad media..

a) 30 m/s
b) 40 m/s
c) 50 m/s
d) 60 m/s
e) 70 m/s

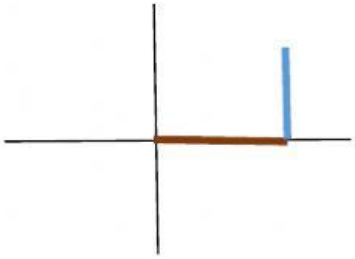

Calcula la rapidez media y la velocidad media en la trayectoria mostrada, si el móvil se demora 2 segundos en recorrer dicha trayectoria.

a) 8 m/s, 4m/s
b) 8 m/s, 6 m/s
c) 4m/s, 2m/s
d) 6 m/s, 8m/s
e) 4m/s, 4m/s

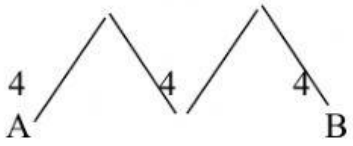

LIVEWORKSHEETS