Colégio Madre Clélia Merloni PALMAS

FORTE NOS RESULTADOS COMPETENTE NA FORMAÇÃO

Aluno (a):		**Data:** / /2021
Professora:	**Disciplina**:ciências/lab	**Turma:**

Assista o vídeo sobre os estados físicos da água e faça a atividade.



1. Marque um x as afirmativas verdadeiras em relação a água.

☐ Podemos encontrar a água na natureza em três estados físicos.

☐ Podemos encontrar a água na natureza apenas no estado líquido.

☐ Ao aquecer a água ela passa do seu estado líquido para o sólido.

☐ A água no ar encontra-se no estado gasoso.

LIVEWORKSHEETS

2. Em que estado físico encontra-se a água? Ligue as imagens para o estado físico em que se encontram.

LIQUÍDO

SÓLIDO

GASOSO

LIVEWORKSHEETS

3. Para a mudança de estado da água tem de haver frio ou calor. Complete as frases arrastando os conceitos corretos em relação as transformações dos estados físicos.

CONDENSAÇÃO	SOLIDIFICAÇÃO	EVAPORAÇÃO

A passagem do estado líquido para o gasoso é denominado de _____

A passagem do estado de gás para o líquido é denominado de: _____

A passagem do estado líquido para o sólido é denominado de : _____

3. Observe as imagens e responda, ou complete:

a) Em que estado está o gelo no copo? _____

b) Ao ser aquecida, a água da panela está _____ ,

passando para o estado de _____ .

LIVEWORKSHEETS

Assista este vídeo abaixo e responda a questão 4.



4. Arraste as palavras aos seus lugares corretamente:

PRECIPITAÇÃO **EVAPORAÇÃO** **CONDENSAÇÃO**

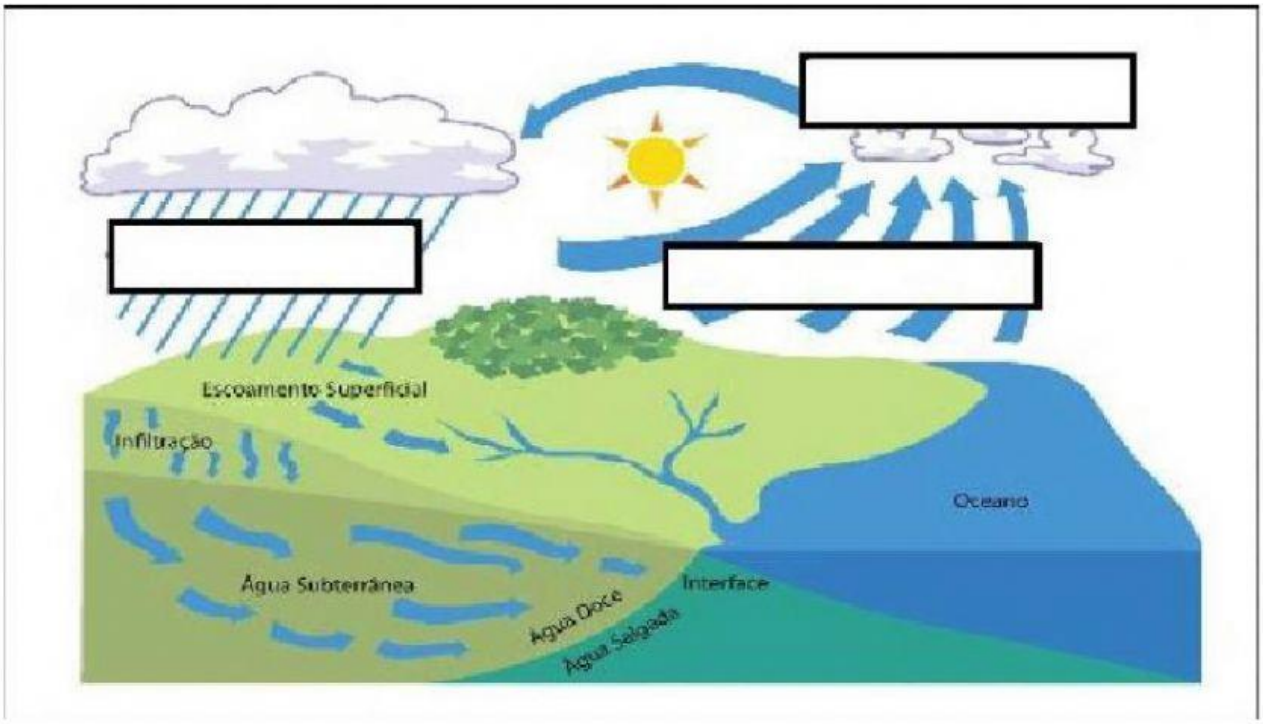

LIVEWORKSHEETS