I.E.P -NUESTRA SEÑORA DE GUADALUPE-

ÁREA: Raz. Matemático PROFESORA: ROCIO COLOS

canvas

1. *Resuelve los siguientes conteos de cuadriláteros empleando el método por observación (letras) y el método por inducción (fórmula):*

1. ¿Cuántos cuadriláteros hay?

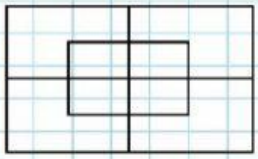

1 letra : _____

2 letras :_____

4 letras :_____

8 letras :_____

TOTAL: _____

2. ¿Cuántos cuadriláteros hay?

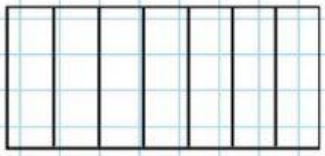

$$\frac{(\quad + 1)}{2} = __(\ __) = __$$

3. ¿Cuántos cuadriláteros hay?



$$\frac{(\quad + 1)}{2} = __(\ __) = __$$

4. ¿Cuántos cuadriláteros hay?

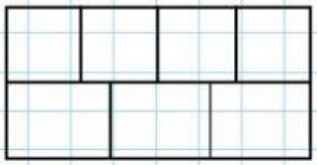

1 letra : _____

2 letras :_____

3 letras :_____

4 letras :_____

7 letras :_____

TOTAL: _____

LIVEWORKSHEETS