مراجعة الوحدة 15

المحيط و المساحة

الاسم :

الصف الرابع :

مستطيل مساحته $10\ m^2$ و محيط $14\ m$.
ما أبعاد المستطيل ؟

A	B	C
2 m x 5 m	1 m x 10 m	7 m x 3 m

مستطيل مساحته $40\ m^2$ و محيط $26\ m$.
ما أبعاد المستطيل ؟

A	B	C
2 m x 20 m	1 m x 40 m	8 m x 5 m

LIVEWORKSHEETS

محيط المستطيل الموضح 24 cm ،
أوجد طول الضلع الناقص .

10 cm

?

2 cm	3 cm	4 cm
A	B	C

مساحة المستطيل الموضح $28\ cm^2$ ،
أوجد طول الضلع الناقص .

7 cm

?

5 cm	3 cm	4 cm
A	B	C

مربع محيطه 24 m . فما مساحته ؟

$A= 22\ m^2$	$A= 36\ m^2$	$A= 20\ m^2$
A	B	C

LIVEWORKSHEETS

ما محيط المستطيل الموضح ؟

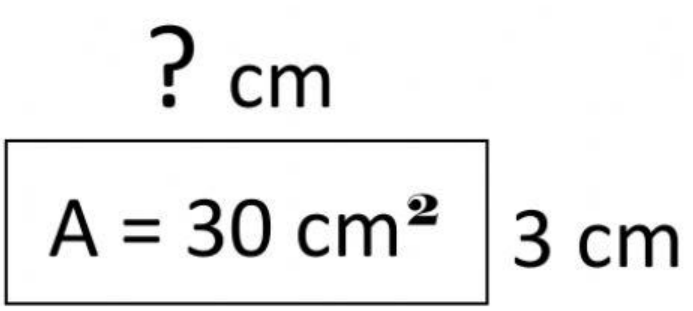

P = 30 cm	P = 28 cm	P = 26 cm
A	B	C

أوجد مساحة المربع الموضح

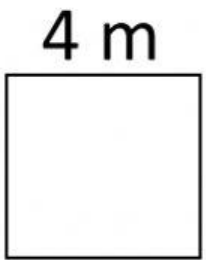

$16\ m^2$	$8\ m^2$	$12\ m^2$
A	B	C

أوجد مساحة المستطيل الموضح

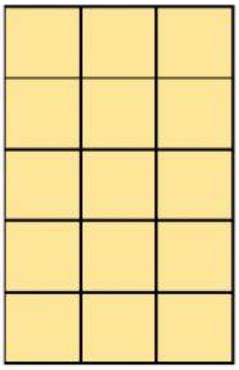

18 وحدة مربعة	15 وحدة مربعة	16 وحدة مربعة
A	B	C

LIVEWORKSHEETS

عند خلود 3 صور قياس كل منها قياس الصورة المبينة .
كم سيكون محيط المستطيل الذي يتشكل إذا تم وضع
الصور الثلاثة بجانب بعضها البعض كما هو مبين ؟



24 m	27 m	30 m
A	B	C

أوجد محيط
المستطيل الموضح

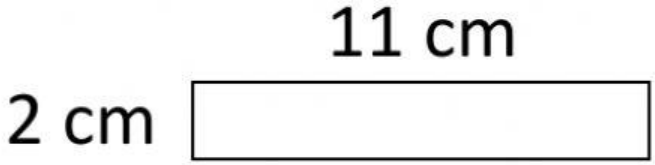

P = 26 cm	P = 22 cm	P = 20 cm
A	B	C

أوجد محيط
المستطيل بالوحدات



18 وحدة	16 وحدة	15 وحدة
A	B	C

LIVEWORKSHEETS