NOMBRES Y APELLIDOS DEL ESTUDIANTE:

MULTIPLICAR POR 10, 100 Y 1000

1. ESCRIBE EL RESULTADO DE LAS SIGUIENTES OPERACIONES, Y UNE SEGÚN SU ESCRITURA

- 19 x 100 = ____
- 48 x 10 = ____
- 1000 x 833 = ____
- 220 x 1000 = ____
- 40 x 10 = ____
- 91 x 100 = ____

ochocientos treinta y tres mil

nueve mil cien

cuatrocientos ochenta

doscientos veinte mil

mil novecientos

cuatrocientos

2. UNE CON FLECHAS LA OPERACIÓN CON EL RESULTADO CORRECTO

34 x 10 | **340 x 1000** | **304 x 100** | **3.440 x 10**

34.400 | 340 | 340.000 | 30.400

3. CADA PISO DE ESTE EDIFICIO MIDE 9 METROS. SI EL EDIFICIO TIENE 100 PISOS. ¿CUÁL ES SU ALTURA?

¿Qué operación debo realizar? _____

Respuesta:

El edificio tiene una altura de ____ metros.

LIVEWORKSHEETS

PERÍMETRO Y ÁNGULO
DE CUADRADOS Y RECTÁNGULOS

1. SELECCIONE LOS ENUNCIADOS CORRECTOS SOBRE LA FIGURA GEOMÉTRICA.

( ) El rectángulo tiene cuatro lados.

( ) El cuadrado tiene 8 vértices.

( ) El rectángulo tiene sus lados desiguales.

( ) El cuadrado tiene 6 ángulos.

2. CÁLCULO DEL PERÍMETRO DE LA FIGURA CON LOS DATOS ASIGNADOS

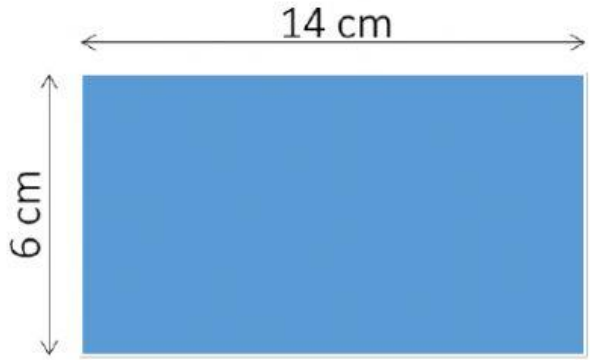

DESARROLLO

El perímetro del rectángulo es:

3. COLOCA CORRECTAMENTE LOS ELEMENTOS DE LAS SIGUIENTES FIGURAS GEOMÉTRICAS

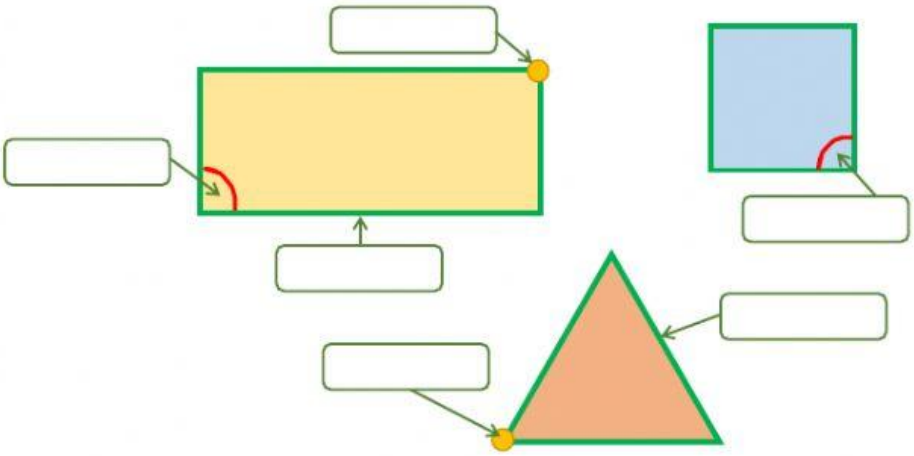

lado

vértice

ángulo

ángulo

vértice

lado

LIVEWORKSHEETS

RECTA, SEMIRRECTA Y SEGMENTO

1. INDIQUE EL NOMBRE SEGÚN CORRESPONDA

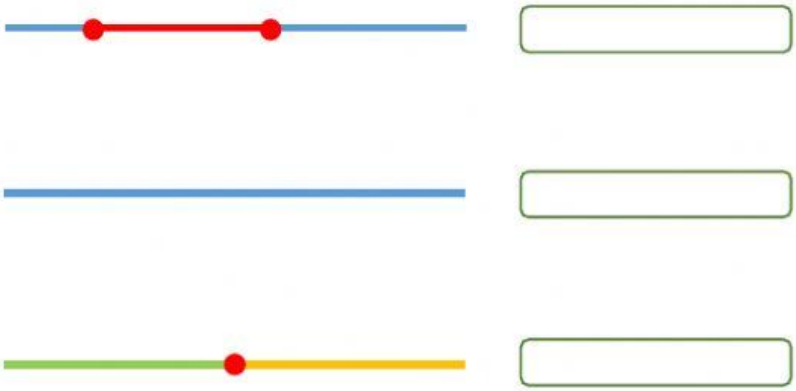

2. RELACIONE: RECTA, SEMIRRECTO, SEGMENTO O ÁNGULO

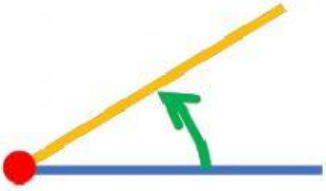

- Línea que no tiene principio, ni fin.

- Línea que tiene principio, pero no tiene fin.

- Línea recta comprendida entre dos puntos.

- Región comprendida entre dos semirrectas que se unen en un punto llamado vértice.

LIVEWORKSHEETS