NEURRIAK ETA GEOMETRIA 1

1.-Gogoratu unitateen arteko baliokidetasunak, eta osatu taula.

km	hm	dam	m	dm	cm	mm
		6,83				
						43.000

2.-Erantzun galderei.

- Zenbat gramo dira kilo laurdena?

  500 | 750

  250 | 1.000

- Hirurogeita hamabost minutu, ordu _____ eta _____ minutu dira.

- Zenbat mililitro dira bost litro?

  500 | 5.000

  50 | 50.000

- Zenbat metro karratu dira 1 hm^2?

  100 | 1.000

  0,1 | 10

LIVEWORKSHEETS

3.-Esan irudi hauek, angeluen arabera nolakoak diren: kamutsa, zuzenak eta zorrotzak.

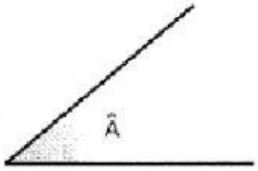

Kamutsa | Zuzena | Zorrotza



Kamutsa | Zuzena | Zorrotza

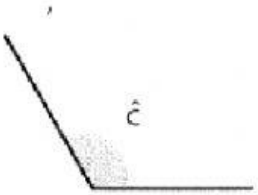

Kamutsa | Zuzena | Zorrotza

Kamutsa | Zuzena | Zorrotza

LIVEWORKSHEETS

4.-Kalkulatu irudien perimetroa eta azalera.

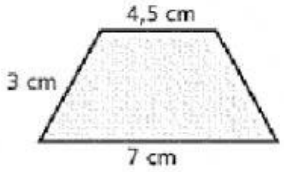

- Zein irudi da?

Laukia	Laukizuzena	Triangelua
Pentagonoa	Trapezioa	Erronboa

Perimetroa:

P = [ ]

Azalera: Zein formula aukeratuko ditut, irudi honen azalera kalkulatzeko?

Aldea x aldea	Oinarria x altuera	$\frac{\text{Oinarria x altuera}}{2}$
$\frac{\text{perimetroa x apotema}}{2}$	$\frac{(B + b) \text{ x altuera}}{2}$	$\frac{D \text{ x } d}{2}$

A = [ ]

LIVEWORKSHEETS

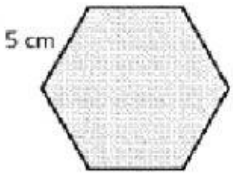

- Zein irudi da?

Laukia	Laukizuzena	Triangelua
Pentagonoa	Trapezioa	Erronboa

Perimetroa:

P =

Azalera: Zein formula aukeratuko ditut, irudi honen azalera kalkulatzeko?

Aldea x aldea	Oinarria x altuera	$\frac{\text{Oinarria x altuera}}{2}$
$\frac{\text{perimetroa x apotema}}{2}$	$\frac{(B + b) \text{ x altuera}}{2}$	$\frac{D \text{ x } d}{2}$

A =

LIVEWORKSHEETS