Escritura de números decimales

1. La cantidad de desinfectante que se recomienda para verduras es tres mililitros y setenta y cinco milésimas de mililitro. ¿Cuál dosificador muestra la cantidad de desinfectante adecuada?

A

B

C

D

2. La capacidad de reacción de un felino es de siete milésimas de segundo. ¿En cuál imagen se muestra el tiempo de reacción?

A

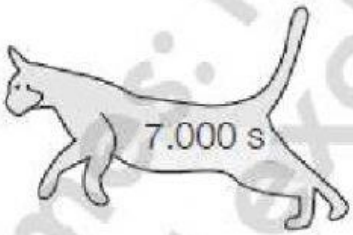

B

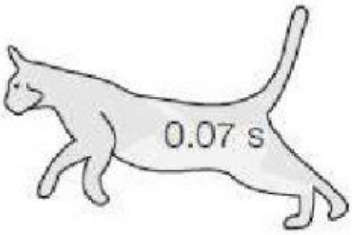

C

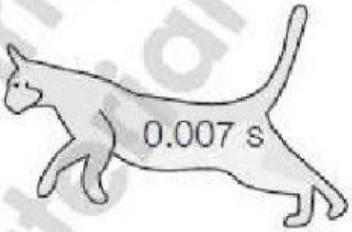

D

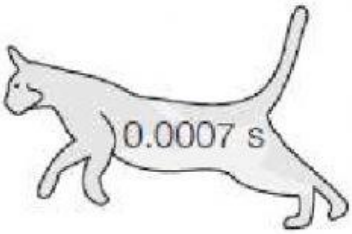

Cos Firmes: Proyecto de Reforzamie
material exclusivo digital ciclo 2021

LIVEWORKSHEETS

3. Natalia se enfermó y el médico le recomendó consumir solamente dos gramos con siete miligramos de sal en cada comida. ¿Cuál salero muestra la porción de sal que debe consumir Natalia?

A


B
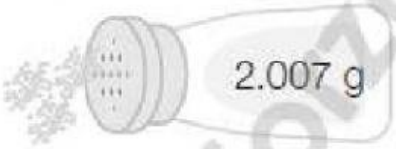

C
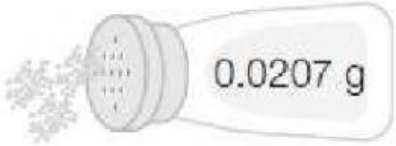

D

4. Un foco ahorrador alcanza su máxima intensidad en cuatro segundos con tres centésimas. ¿Cuál opción muestra el tiempo que tarda el foco en iluminar al máximo?

A

B

C

D

os Firmes: Proyecto de refuerzamiento
terial exclusivo digital ciclo 20
LIVEWORKSHEETS