TERCERO BÁSICO

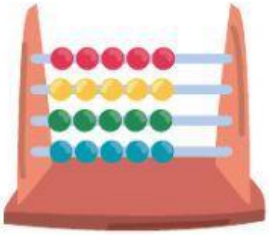

CONTROL DE MULTIPLICACIÓN

1.- De acuerdo a la representación completa los datos faltantes

1

____ + ____ + ____ = ____

____ veces 4 = ____

____ · ____ =

2

____ + ____ + ____ + ____ + ____ = ____

____ veces 3

____ · ____ = ____

3

____ + ____ + ____ + ____ + ____ + ____

____ veces 2 = ____

____ · ____ = ____

LIVEWORKSHEETS

1 Si tengo 3 canastos con 10 kiwis cada uno.
¿Cuántos kiwis tengo en total?

____ + ____ + ____ = ____

____ veces ____ = ____

____ · ____ = ____

Tengo ____ kiwis en total.

2.- Encuentra el producto de las siguientes multiplicaciones en matrices

1



4 · 3 = ___



3 · 4 = ___

2



3 · 6 = ___



6 · 3 = ___

3



5 · 2 = ___



2 · 5 = ___

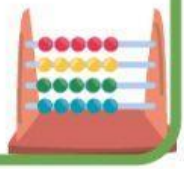

LIVEWORKSHEETS

3.- Escribe las siguientes frases numéricas y resuelve

1. En la pastelería de doña Ana, Francisca compró 3 bolsas con 4 galletones cada una. ¿Cuántos galletones compró en total?

____ + ____ + ____ = ____

____ · ____ = ____

Francisca compró ____ galletones en total.

2. En la pastelería se prepararon 4 pasteles con 2 guindones de decoración cada uno. ¿Cuántos guindones se utilizaron para decorar los pasteles?

____ + ____ + ____ + ____ = ____

____ · ____ = ____

Se utilizaron ____ guindones en total.

3. Para un té, doña Inés compró 2 pasteles de chocolate, 2 de frambuesa y 2 de crema. ¿Cuántos pasteles compró en total?

____ + ____ + ____ = ____

____ · ____ = ____

Compró ____ pasteles en total.

4. El Sr. Silva compró 1 medialuna para cada uno de sus hijos. Si tiene 6 hijos, ¿cuántas medialunas compró el Sr. Silva?

____ + ____ + ____ + ____ + ____ + ____ = ____

____ · ____ = ____



El Sr. Silva compró ____ media lunas.

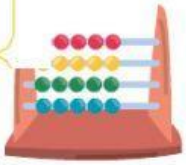

LIVEWORKSHEETS