UNIDAD EDUCATIVA PARTICULAR BILINGUE ECOMUNDO

NOMBRE: FECHA:

CURSO: PARALEO: A B

DOCENTE: Ing.Andrés González T, Mgtr.

TEMA: NÚMEROS ENTEROS-RECTANUMÉRICA-NÚMEROS OPUESTOS

▶ Representa en una recta numérica cada grupo de números enteros.

1. $-1, -7, -3, 0, 4$

2. $-3, 0, 3, 7, 8, 9$

3. $-5, 0, 5, 7, 11$

4. $-1, 0, 2, 3, -5, 6$

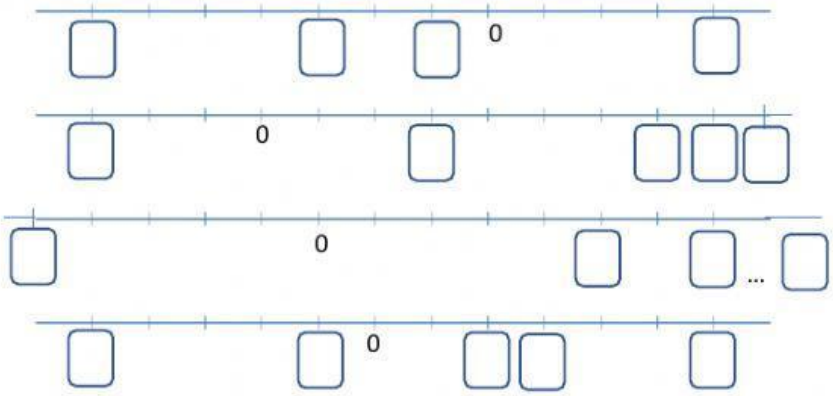

▶ Completa las rectas numéricas con los números enteros que faltan.

5.

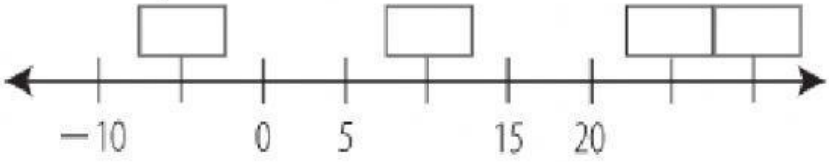

6.

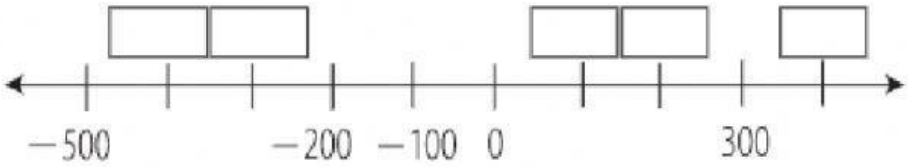

LIVEWORKSHEETS

Escribe una situación opuesta y el número entero que la representa.

7. Laura ganó 100 dólares.
8. El termómetro registró una temperatura de 7 °C bajo cero.
9. El valor del pasaje de transporte interprovincial se incrementó en $ 2,00.

Determina cuáles de las siguientes afirmaciones son verdaderas y cuáles son falsas. Justifica tu respuesta.

10. Los números enteros negativos se ubican a la izquierda en la recta numérica.

11. Los números enteros positivos no se ubican a la derecha en la recta numérica.

12. El opuesto de un número natural es un entero positivo.

LIVEWORKSHEETS

Lee, observa y responde.

Al ubicar números enteros en la recta numérica, el **sucesor** de un número entero es aquel que se encuentra inmediatamente a la derecha del número dado. El **antecesor** de un número entero es aquel que está inmediatamente a la izquierda del número dado.

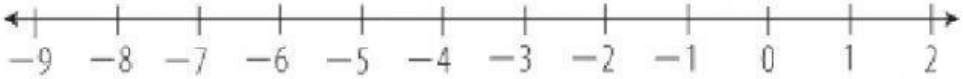

13. ¿Cuál es el antecesor de −5?

14. ¿Cuál es el sucesor de −8?

15. ¿Cuál es el sucesor del sucesor de −2?

LIVEWORKSHEETS