ESCOLA: _____

PROFESSOR (A): _____ DATA: __/__/__

ALUNO (A): _____SÉRIE:_____

Plano Cartesiano

OBSERVE O PLANO CARTESIANO ABAIXO:

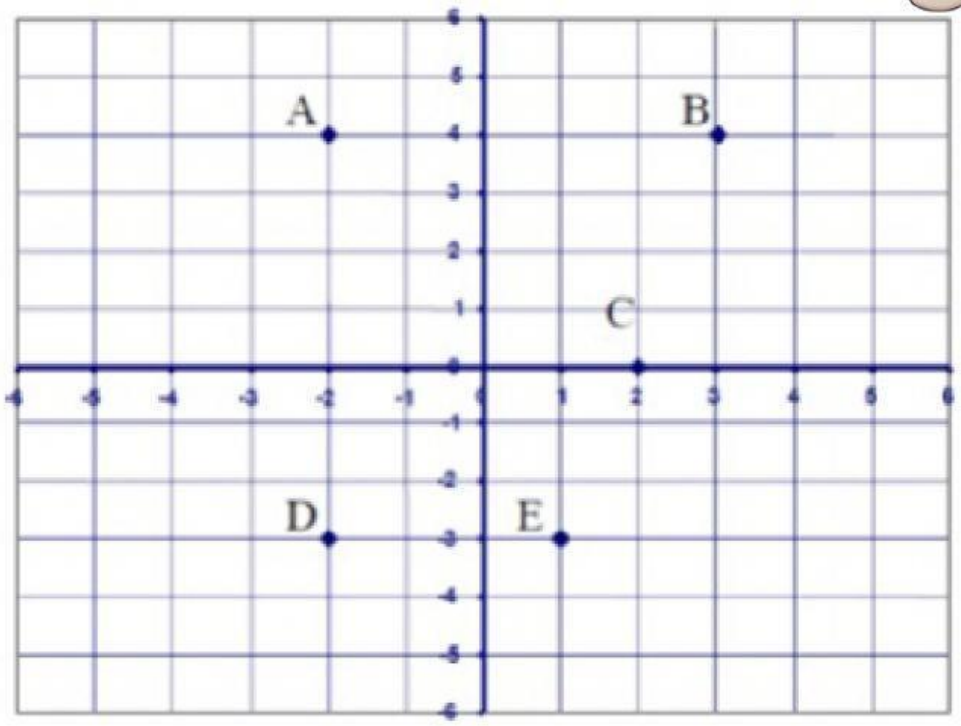

1- AGORA, LIGUE AS COORDENADAS CORRESPONDENTES A CADA PONTO NO PLANO CARTESIANO:

A	(-2,-3)
B	(1, -3)
C	(-2,4)
D	(3,4)
E	(2,0)

LIVEWORKSHEETS

2- QUE FIGURA IRÁ FORMAR SE LIGAR OS PONTOS A, B Ee C?



Observe a figura e selecione (V)ou (F) conforme a afirmação seja verdadeira ou falsa: (considere cada lado do quadradinho igual a 1cm)

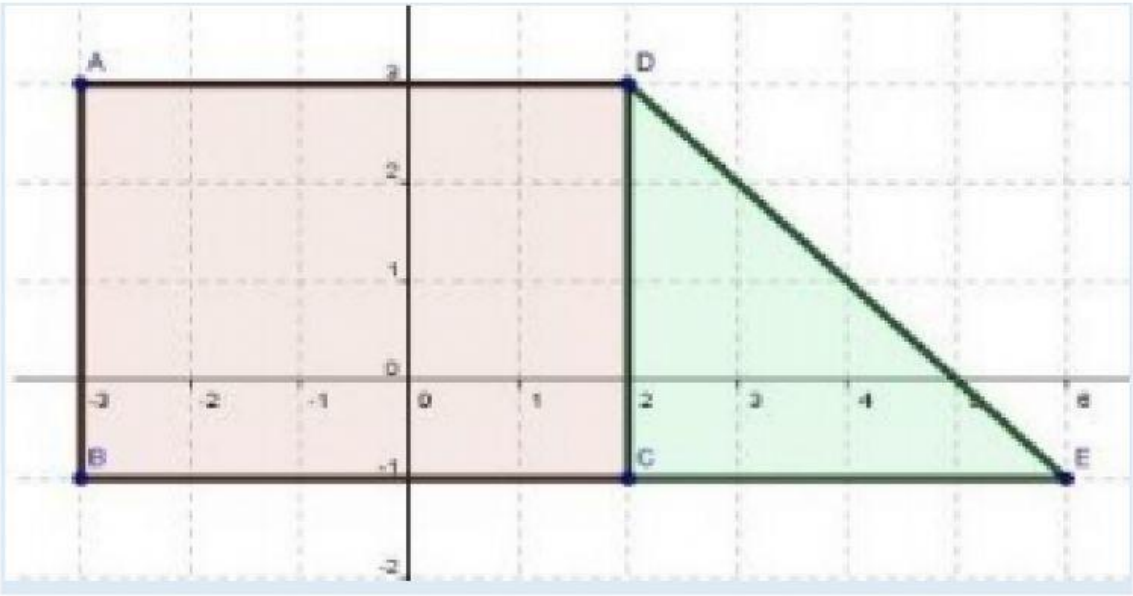

( ) O quadrilátero ABCD tem 20cm² de área.
( ) O perímetro do retângulo ABCD é 10cm.
( ) A área do triângulo CDE é 8cm².
( ) O perímetro do triângulo CDE é (8+ 4√2)cm.
( ) A perímetro do trapézio ABED é 22cm.
( ) As coordenadas do ponto D são (2, 3).
( ) As coordenadas do ponto E são (-1, 6).

LIVEWORKSHEETS

Arraste o ponto correspondente a cada par de coordenadas que se apresenta na tabela abaixo:

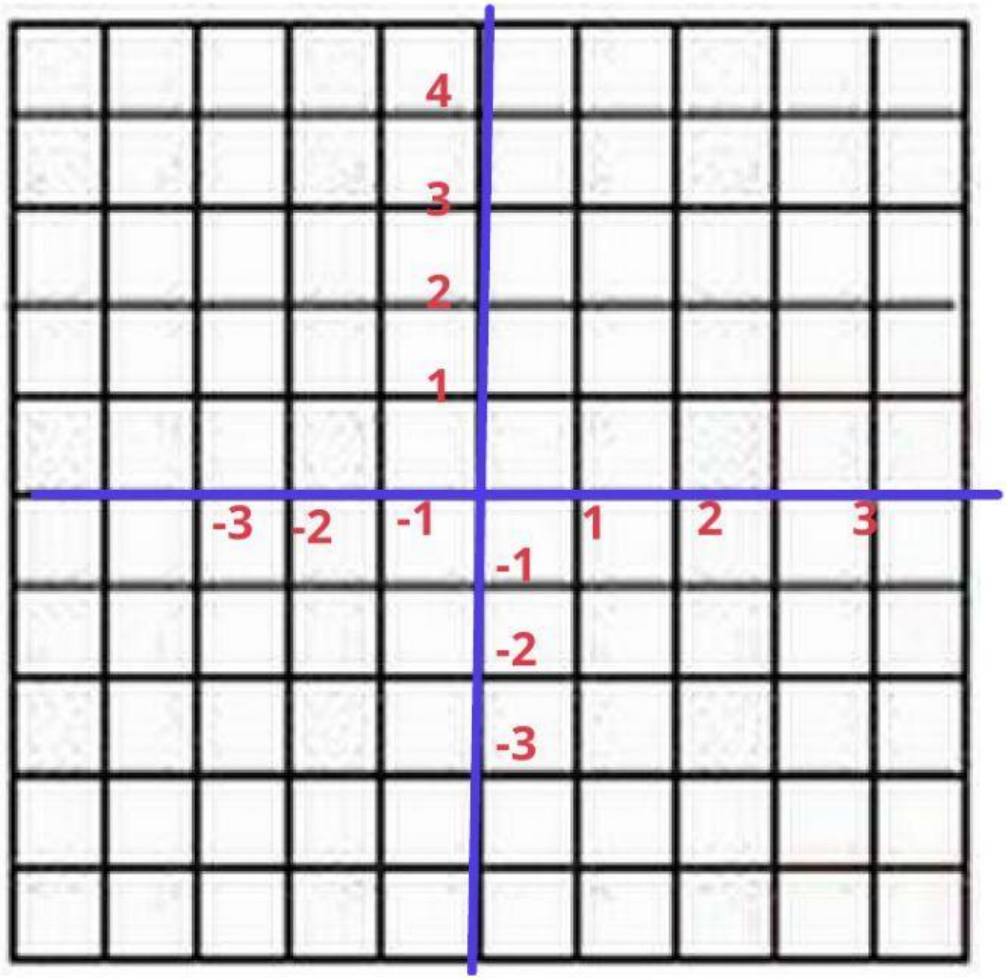

PONTOS	COORDENADAS
A	(-2,-1)
B	(0,2)
C	(-3,0)
D	(2,2)

LIVEWORKSHEETS