FRACCIONES $\frac{1}{2}$ $\frac{1}{3}$ $\frac{1}{4}$

Une con una línea la pizza a la fracción que representa

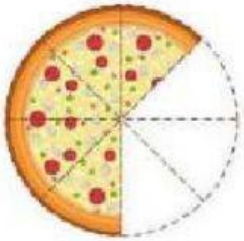

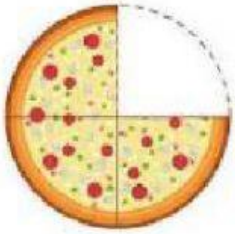

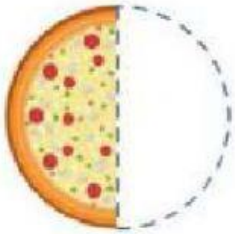



$\frac{1}{2}$ $\frac{5}{8}$ $\frac{1}{4}$ $\frac{3}{4}$

Analiza y selecciona la opción correcta en cada caso

1. Se van a repartir 4 barras de chocolates entre 8 niños de manera que les toque igual y no sobre, ¿Cuánto le tocará a cada niño?

   $\frac{7}{8}$ $\frac{4}{8}$ $\frac{2}{8}$

2. Se van a repartir 2 donas entre 8 niñas de manera que les toque igual y no sobre nada. ¿Cuánto le tocara a cada niña?

   $\frac{7}{8}$ $\frac{4}{8}$ $\frac{2}{8}$

3. Se van a repartir 7 galletas entre 8 niñas de manera que les toque igual y no sobre nada. ¿Cuánto le tocara a cada una?

   $\frac{7}{8}$ $\frac{4}{8}$ $\frac{2}{8}$

LIVEWORKSHEETS