Даалгавар

1. Дараах хүснэгтийг А үсгээр дүүргэхэд хичнээн квадратад А үсэг бичих вэ?

			А	А	А
А	А	А			
			А	А	А
А	А	А			

А. 11 Б. 12 В.13 Г.10

2. Квадратын дутуу хэсгийг дүүргэх дүрсийг сонго.

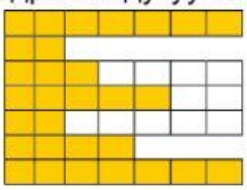

А. Б. В. Г.

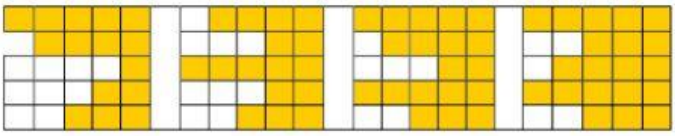

3. Тэгш өнцөгтийн талбай 54 см.кв бол урт ба өргөний хэмжээг олж дугуйл.

а. 4 см ба 8 см б. 9 см ба 6 см в. 8 см ба 5 см г. 7 см ба 3 см

4. А, Б, В дүрсүүдийн талбайн хэмжээг бичээрэй.

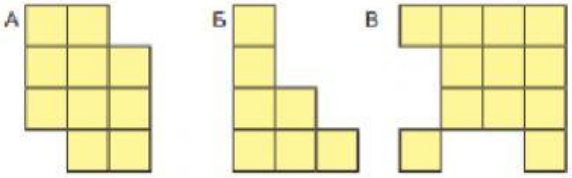

5. Тэгш өнцөгтийн урт 6 см, өргөн 4 см-тэй тэнцүү. Уг тэгш өнцөгтийн периметр, талбайн хэмжээг олоорой.

6. Дүрсийн талбайн хэмжээ ба периметрийг олоорой.

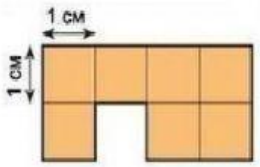

7. Сургуулийн тоглоомын талбай квадрат хэлбэртэй. Түүний тал нь 100м урттай. Бат тоглоомын талбайг нэг удаа тойрч алхав. Тэр хэр хол алхсан бэ? 2 удаа тойрвол хэдий хэмжээний зам туулах вэ?

LIVEWORKSHEETS