Distrito educativo 4

RED Nº 3

Unidos por la calidad educativa

#Red3ConcursoLeamosEnCasa

Señale el árbol más grande.



¿Que figura tiene forma de rectángulo?

¿Cuál de los dibujos tiene líneas rectas?



¿Qué conjunto tiene tres elementos?



PROFESORA MIRIAM ARRAZOLA

LIVEWORKSHEETS