LEMBAR KERJA PESERTA DIDIK

Garis dan Sudut

Name: _____ Class/Section: _____

Date: _____ Score: _____

KOMPETENSI DASAR (KD)

Menjelaskan sudut, jenis sudut, hubungan antar sudut, cara melukis sudut, membagi sudut, dan membagi garis

TUJUAN PEMBELAJARAN

Setelah pembelajaran ini siswa dapat:

- Menentukan besar suatu sudut
- Menentukan jenis sudut berdasarkan besar sudutnya
- Menentukan sifat-sifat hubungan antar sudut
- Menerapkan sifat-sifat hubungan antar sudut dalam menyelesaikan masalah.

PETUNJUK

Setelah mempelajari Lembar Kerja ini kalian akan kebih memahami pengertian sudut dan jenis-jenis sudut

LIVEWORKSHEETS

Berikut Materi untuk Garis dan Sudut

SOAL PILIHAN GANDA

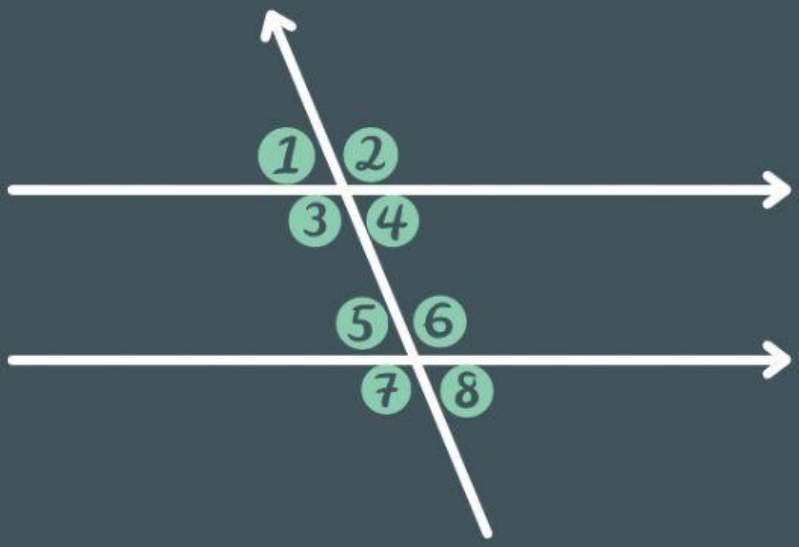

Pernyataan yang benar dari gambar diatas adalah.....

a. <1 Sehadap <2

b. <2 Sehadap <7

c. <3 Sehadap <5

d. <4 Sehadap <8

LIVEWORKSHEETS

SOAL KOTAK PILIHAN

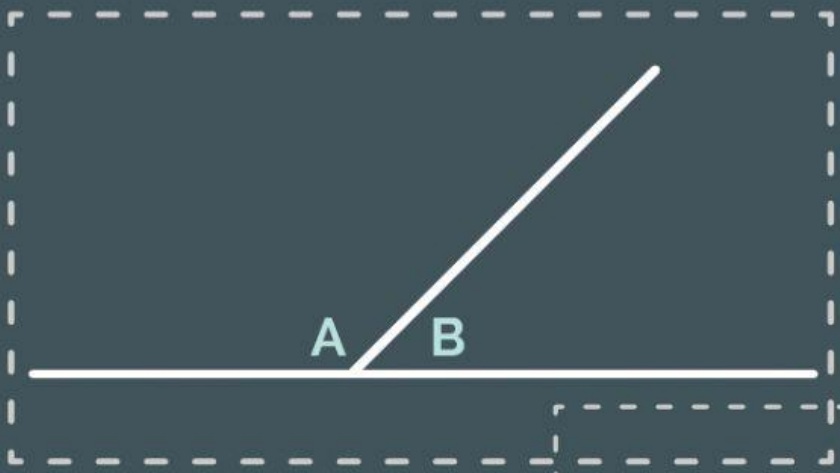

Jumlah sudut A + sudut B adalah....

SOAL ISIAN SINGKAT

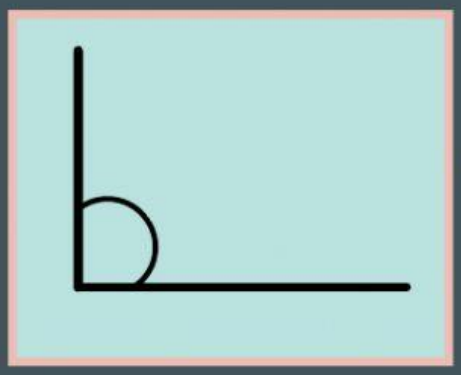

1. Besar sudut dari gambar disamping adalah....

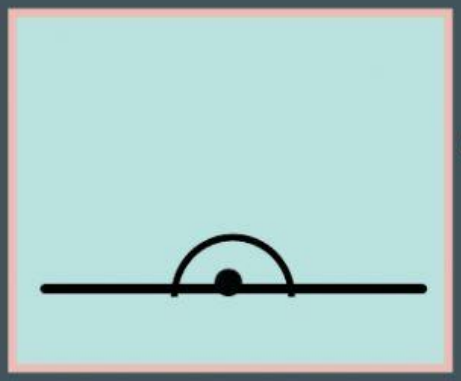

2. Besar sudut dari gambar disamping adalah....

LIVEWORKSHEETS

SOAL MENEMPELKAN

[redacted]

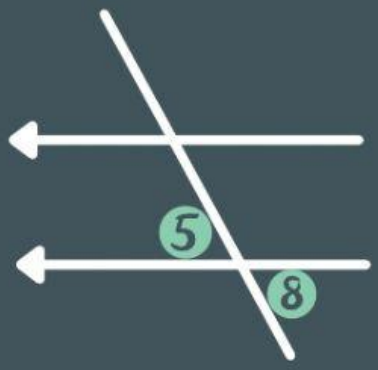

[redacted]

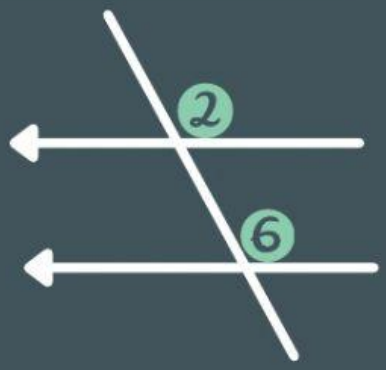

BERPELURUS

SUDUT SEHADAP

[redacted]

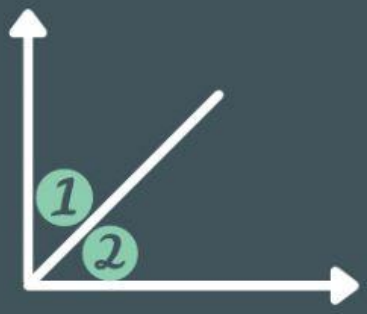

[redacted]

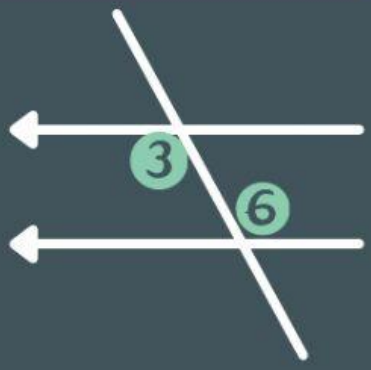

BERSEBRANGAN

BERPENYIKU

[redacted]

[redacted]

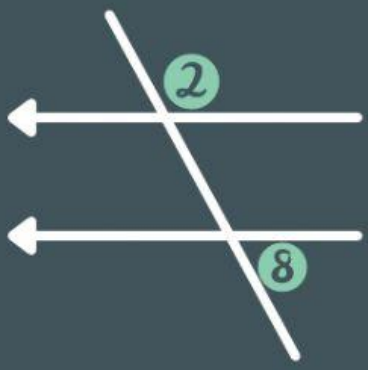

BERTOLAK BELAKANG

SUDUT SEPIHAK

LIVEWORKSHEETS

SOAL MENJODOHKAN

Buatlah garis untuk memasangkan gambar yang sesuai dengan keterangannya

SUDUT LANCIP

SUDUT SIKU-SIKU

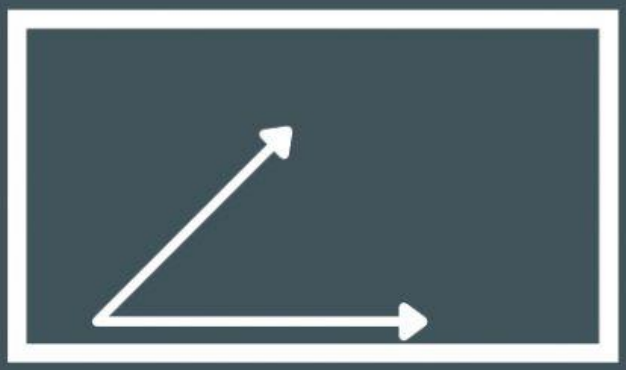

SUDUT LURUS

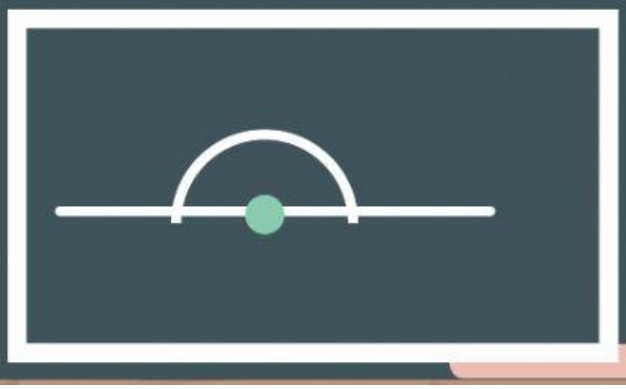

SUDUT TUMPUL

LIVEWORKSHEETS

LEMBAR PROBLEM SOLVING

MASALAH 1

Pernahkan kalian melihat pemain bola?

Dalam permainan bola kita sering mendengarkan kata "tendangan sudut" yaitu, tendangan yang dilakukan dari pojok lapangan. Tsubasa sering bermain bola, suatu hari tsubasa melakukan tendangan sudut. Tsubasaberdiri tepat diantara 2 garis tepi lapangan lalu ia melakukan tendangan sudut dan GOOL

Berapakah sudut yang terbentuk saat Tsubasa melakukan tendangan sudut?

Ada berapa garis tepi di pojok lapangan?

Daerah yang terbentuk dari garis tepi itu dinamakan?

MASALAH 2

Jarum panjang jam dinding menunjukkan angka 12

Angka berapanyang ditunjuk jarum pendek agar kedua jarum jam membentuk sudut lurus?

LIVEWORKSHEETS