SOAL ULANGAN MATEMATIKA
(PENGUKURAN SUDUT)
SD NEGERI 10 PEMECUTAN
KELAS IV A SEMESTER 2
TAHUN AJARAN 2020 / 2021

I. Berikan tanda silang (X) pada huruf a, b, c, dan d yang dianggap paling benar!

1. Penulisan sudut yang tepat pada gambar di bawah ini adalah ….

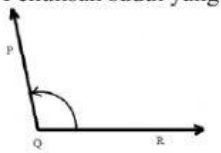

a. <QRP b. <RQP c.<PRQ d. <RPQ

2. Perhatikan gambar di bawah ini!

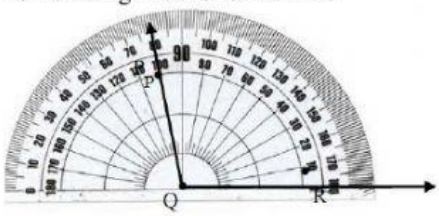

Besar sudut PQR adalah….

a. 100° b. 180° c. 80° d. 95°

3. Gunakan busur derajatmu untuk mengukur sudut berikut!

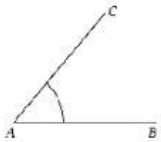

Taksiran besar sudut BAC di atas adalah ….

a. 130° b. 50° c. 70° d. 90°

II. Lengkapilah titik-titik di bawah ini dengan jawaban yang tepat !

4. Jumlah besar sudut segitiga adalah….

5. 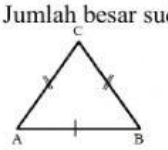

Besar setiap sudut dalam dari bangun segitiga beraturan adalah….

III. Jawablah pertanyaan di bawah ini dengan benar!

6. 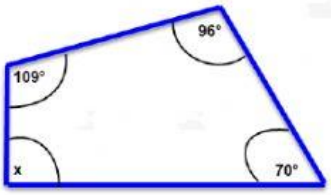

Berapakah besar sudut x sesuai dengan gambar di atas ?

LIVEWORKSHEETS