Ciencias Naturales



EVALUACIÓN DIAGNOSTICA

DOCENTE:

JANDRY HIDALGO

GRADO: SÉPTIMO AÑO

LIVEWORKSHEETS

UNIDAD EDUCATIVA FISCAL GIL DELGADO PINTO	**ESCUELA DE EDUCACIÓN BÁSICA "GIL DELGADO PINTO"**	**AÑO LECTIVO: 2021-2022**

EVALUACIÓN DE DIAGNÓSTICO

ÁREA:	GRADO/NIVEL	JORNADA
Ciencias Naturales	7MO "A"	Matutina

ESTUDIANTE:		FECHA:	

Nº	Planteamiento
1	**Indica el nombre de cada una de las partes de la planta señaladas en la imagen y explica cuál es su función.**

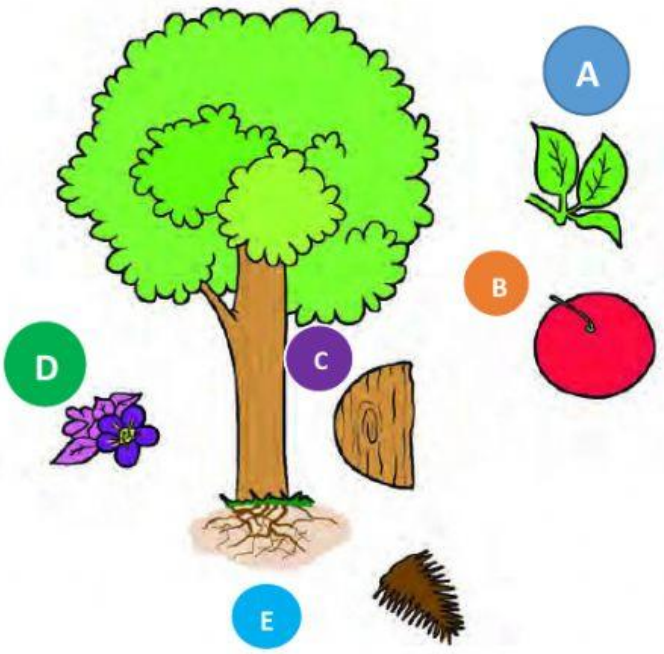

LETRA	NOMBRE	FUNCIÓN
A	Hojas	Lleva a cabo la fotosíntesis y la respiración.
B	Fruto	
C		
D		
E		

2	**Ordena el ciclo de vida de las plantas del 1 al 4.**

LIVEWORKSHEETS

	( )	( )	( )	( )
3	***COLOCA UN O A LOS ANIMALES víparos y UNA X para los ovíparos.***			

LIVEWORKSHEETS







4 ***Completa:***

Vértebras ***Columna vertebral*** ***Esqueleto interno***

Un animal vertebrado es aquel que tiene un _____ ; el eje del esqueleto es la _____ formada por _____.

LIVEWORKSHEETS

5	***ESCRIBA LOS 2 GRUPOS principales grupos de invertebrados.*** • ***Anélidos*** • ***Artrópodos*** • ***Moluscos*** • ***Cnidarios*** • ***Equinodermos***
6	***ESCRIBA EN EL RECUADRO LOS dos grandes grupos de las plantas con flor.*** • ***pteridófitos*** • ***gimnospermas*** • ***angiospermas*** • ***briófitos***
8	***Escribe 5 hábitos de bioseguridad que ayude a evitar contagiarte del covid_19***

LIVEWORKSHEETS