GUIA DE REPASO: FRACCIONES



NOMBRE: _____

A. PARTES DE LA FRACCIÓN: Escribe las partes de una fracción

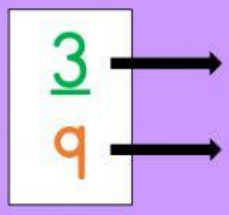

B. ESCRIBIR Y REPRESENTAR: Escribe la fracción y representa con un dibujo

$\frac{1}{6}$	Un sexto	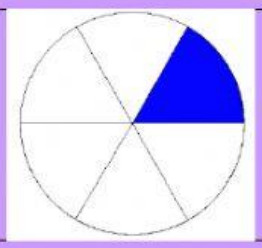
$\frac{8}{3}$		
$\frac{9}{12}$		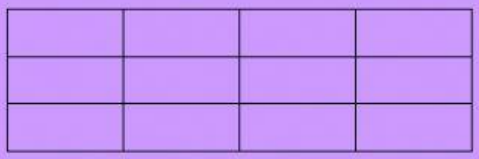
$1\frac{2}{4}$		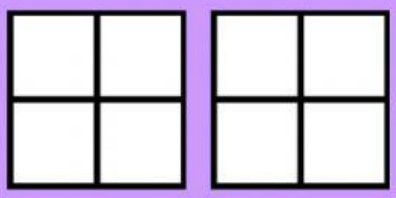

LIVEWORKSHEETS

C. CLASIFICACIÓN: Clasifica en fracción propia, impropia o mixta

$\frac{8}{2}$	
$\frac{3}{4}$	
$3\frac{2}{6}$	
$\frac{7}{20}$	

D. REPRESENTACIÓN DE FRACCIONES EN LA VIDA DIARIA

Rocío utilizó para hacer un queque 5 huevos de un total de 12, ¿Qué fracción del total utilizó?	—
Esteban bañó a 5 de sus 7 gatos, ¿Qué fracción del total bañó?	—

E. TRANSFORMAR FRACCIONES:

Trasforma de fracción impropia a número mixto

Transforma $\frac{4}{3}$ a número mixto	—
Transforma $\frac{21}{4}$ a número mixto	—
Transforma $\frac{8}{3}$ a número mixto	—

LIVEWORKSHEETS

Trasforma de número mixto a fracción impropia:

Transforma $2\frac{2}{3}$ a fracción impropia	▬
Transforma $3\frac{2}{4}$ a fracción impropia	▬
Transforma $1\frac{1}{3}$ a fracción impropia	▬
Transforma $4\frac{4}{9}$ a fracción impropia	▬
Transforma $2\frac{1}{8}$ a fracción impropia	▬
Transforma $1\frac{1}{12}$ a fracción impropia	▬



Envía tus respuestas al código: **27m9ds9d5gv**

Profesora Fernanda Salgado Bello

LIVEWORKSHEETS