125. orria

7.-Idatzi nola duten izena honako irudi hauek.

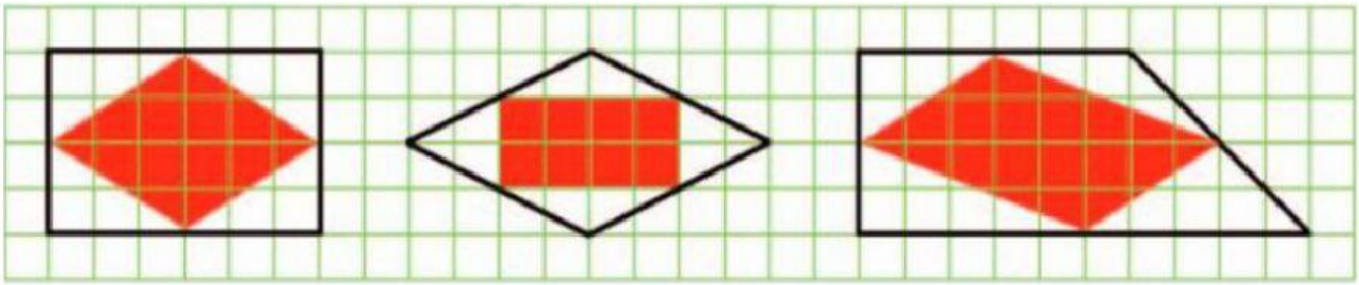

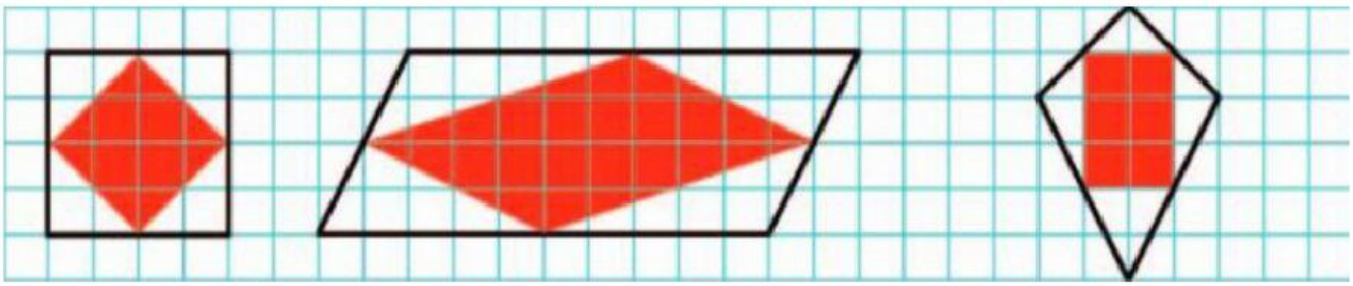

9.-Irudi hauen neurriak jakin ondoren, kalkulatu beren azalerak.

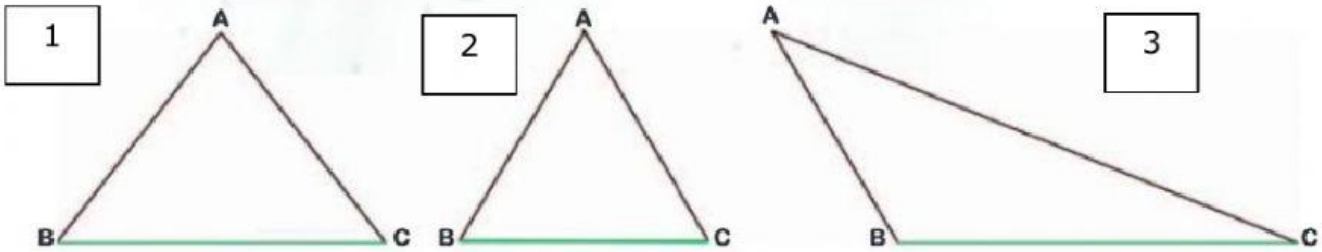

LIVEWORKSHEETS

Goiko irudi hauek, zein irudi dira?

Laukia	Laukizuzena	Triangelua
Pentagonoa	Trapezioa	Erronboa

Aukeratu duzunaren arabera, zein da berari dagokion formula azalera kalkulatzeko?

$A = \frac{\text{Oina x altuera}}{2}$	A = aldea x aldea	$A = \frac{\text{perimetroa x apotema}}{2}$
$A = \frac{(B + b) \times h}{2}$	$A = \frac{D \times d}{2}$	A = oina x altuera

1 irudia: aukeratu duzun formularen arabera kalkulatu emaitza

- Oina:4,5
- Altuera:2,9

A = _____ cm²

2 irudia: aukeratu duzun formularen arabera kalkulatu emaitza

- Oina:3,4
- Altuera:2,9

A = _____ cm²

LIVEWORKSHEETS

3 irudia: aukeratu duzun formularen arabera kalkulatu emaitza

- Oina:5,5
- Altuera:2,9

A = $\boxed{}$ cm²

LIVEWORKSHEETS