EJERCICIO DE MATEMÁTICAS

VALOR: 15 puntos

1. **Une con el lápiz.**

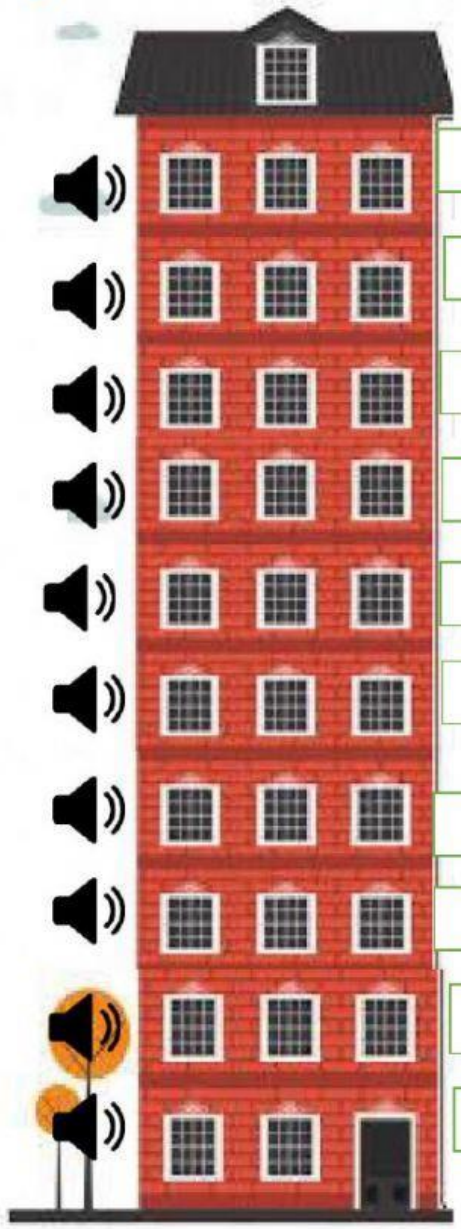

décimo	**1°**
noveno	**2°**
octavo	**3°**
septimo	**4°**
sexto	**5°**
quinto	**6°**
cuarto	**7°**
tercero	**8°**
segundo	**9°**
primero	**10°**

LIVEWORKSHEETS

2. **Observa la imagen.**

Señala el animalito que va de 4° lugar de izquierda a la derecha.



Señala el animalito que va de 5° lugar de derecha a izquierda.



Observa los dibujos.

Arrastra en el casillero el número ordinal siguiendo el orden para construir la historia.

2°
3°
4°



LIVEWORKSHEETS