CLASSIFICACIÓ DE TRIANGLES II

1. Completa el nom de cadascun d'aquest triangles:

ELS TRIANGLES SEGONS ELS SEUS COSTATS...		
2 costats iguals	3 costats iguals 	3 costats diferents

ELS TRIANGLES SEGONS ELS SEUS ANGLES...		
1 angle recte 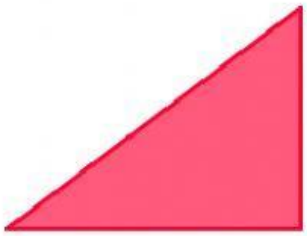	3 angles aguts 	1 angle obtús 

2. Observa els angles d'un triangle equilàter i digues quant valen cadascun d'ells?

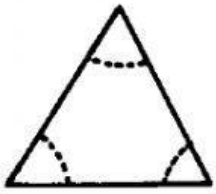

LIVEWORKSHEETS

3. Un triangle isòsceles té dos angles de 80º. Quant mesura l'altre angle?

4. Escriu el nom de cada triangle segons els seus costats i els seus angles:

- Dos costats mesuren 7 cm i l'angle entre ells mesuren 75º.
- Dos costats mesuren 5 cm i un dels seus angles mesura 110º.
- Els seus tres costats mesuren 6 cm.
- Els seus tres costats són diferents i un dels seus angles mesura 90º.

5. Escriu en cada cas si hi ha un triangle com el que es descriu.

- Acutangle i equilàter.
- Obtusangle i acutangle.
- Rectangle i isòsceles.
- Acutangle i escalè.
- Obtusangle i equilàter.
- Isòsceles i acutangle.

LIVEWORKSHEETS