TEOREMA DE PITÁGORAS
EJERCICIO DE REFORZAMIENTO

NOMBRE DEL ALUMNO: **GRUPO:**

Escribe verdadero o falso en las siguientes oraciones

1. La suma de los cuadrados de los catetos de un triángulo rectángulo es igual al cuadrado de la hipotenusa, lo anterior se refiere al Teorema de Pitágoras:

2. El lado de mayor longitud de un triángulo rectángulo es el cateto:

3. Los lados que forman el ángulo de 90°, se llaman catetos:

Relaciona los triángulos con su fórmula, de acuerdo con el lado que se desconoce.

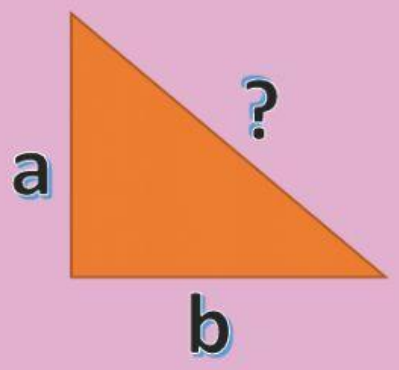

$$c^2 = a^2 + b^2$$

$$a^2 = c^2 - b^2$$

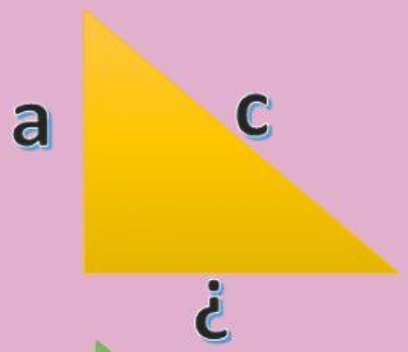

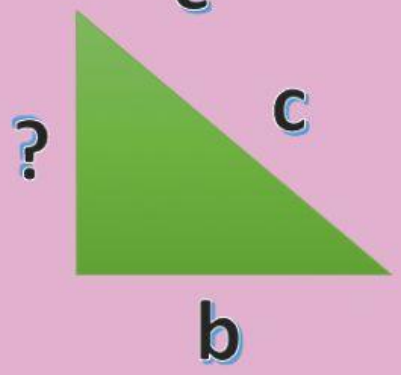

$$b^2 = c^2 - a^2$$

LIVEWORKSHEETS