تذكر أن

مساحة المنطقة المربعة = طول الضلع × نفسه

= (ل)^{٢}

مساحة المنطقة المثلثة= $\frac{١}{٢}$× القاعدة× الارتفاع

= $\frac{١}{٢}$× ق ×ع

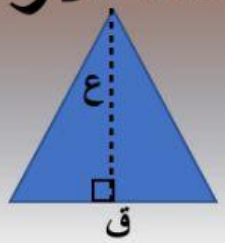

(حيث الارتفاع هو العمود من رأس المنطقة المثلث على القاعدة)

مساحة مربع طول ضلعه ٥سم = سم^{٢}

مساحة مربع طول ضلعه ٩سم = سم^{٢}

مساحة مربع طول ضلعه ٦سم = سم^{٢}

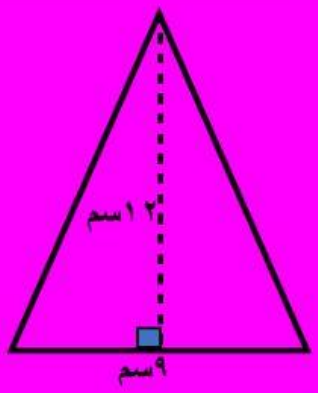

مساحة المثلث = سم^{٢}

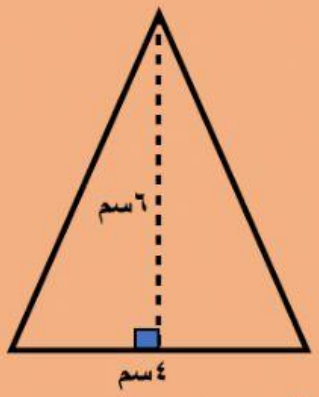

مساحة المثلث = سم^{٢}

LIVEWORKSHEETS