Colegio Buonarroti
Educación Básica - Bachillerato Unificado

Tema: Números decimales

NOMBRE: _____

FECHA: _____

1. Relaciona cada nombre con la respectiva fracción decimal.

$\frac{14}{100}$ $\frac{14}{10}$ $\frac{31}{1000}$ $\frac{31}{100}$

Catorce décimas

Catorce centésimas

Treinta y un centésimas

Treinta y un milésimas

2. Escribe la fracción decimal correspondiente a cada expresión.

a. **Nueve décimos** $\frac{\square}{\square}$

b. **Seiscientos diez milésimos** $\frac{\square}{\square}$

c. **Veintiun centésimos** $\frac{\square}{\square}$

d. **Seis centésimos** $\frac{\square}{\square}$

e. **Cien milésimos** $\frac{\square}{\square}$

f. **Nueve décimos** $\frac{\square}{\square}$

3. Escribe cómo se lee el número representado en cada caso.

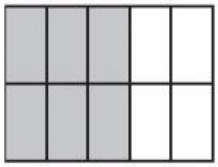





LIVEWORKSHEETS

4. Completa la tabla.

Fracción	Número	Se lee
$\frac{5}{100}$	0,05	Cinco centésimas
	0,23	
		Tres milésimos
$\frac{34}{10}$		
		Dos enteros y 2 centésimos
	34,96	
$\frac{124}{100}$		

5. Expresa cada número como la adición de sus partes y escribe cómo se lee. Ten encuenta el ejemplo.

45,673 = 40 + 5 + 0,6 + 0,07 + 0,003

cuarenta y cinco unidades, seiscientas setenta y tres milésimas

a. 23,560 = _____

_____

b. 12,005 = _____

_____

c. 25,368 = _____

_____

LIVEWORKSHEETS