**BENTUK GEOMETRI TIGA DIMENSI**
**( SUBTOPIK 6.1 & 6.2 )**

1. Nyatakan bentuk asal bentangan berikut

| (a) | (b) | (c) |
|---|---|---|
| 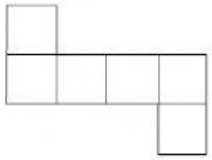 | 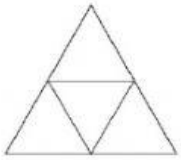 | 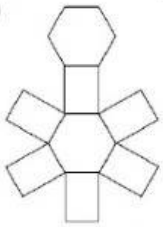 |
| | | |

2. Isi tempat kosong dengan perkataan yang sesuai

| Bentuk Geometri | Sifat Geometri |
|---|---|
| a) Prisma 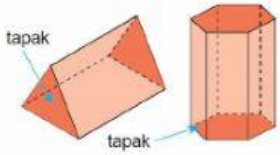  | • Mempunyai ___ tapak rata berbentuk _____ yang kongruen dan _____.<br>• Permukaan rata dengan muka lainnya berbentuk segi empat.<br>• Mempunyai keratan rentas yang _____. |
| b) Piramid 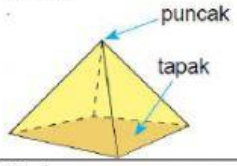  | • Mempunyai satu tapak _____ berbentuk poligon.<br>• Muka lainnya berbentuk segi tiga yang bertemu di _____. |
| c) Silinder 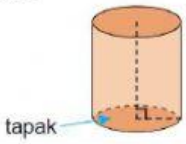  | • Dua tapak rata berbentuk _____ yang kongruen dan selari.<br>• Satu permukaan _____ yang mencantumkan dua tapak. |
| d) Kon 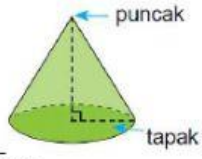  | • Satu tapak rata berbentuk bulatan.<br>• Mempunyai satu _____ .<br>• Satu permukaan melengkung menyambungkan _____ dengan _____. |
| e) Prisma 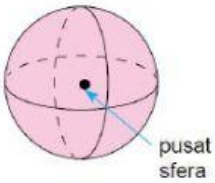  | • Semua titik pada permukaan sfera mempunyai satu _____ berjarak _____ dari pusat sfera.<br>• Mempunyai _____ permukaan melengkung. |

LIVEWORKSHEETS