Evaluación Historia, Geografía y Cs. Sociales
Los continentes y océanos

Objetivo a evaluar:

OA 7: Distinguir hemisferios, principales líneas de referencia, continentes y océanos del planeta en mapas.

ITEM I. **ROTULA LINEAS DE REFERENCIA.** Observa el mapamundi y escribe el nombre de la línea de referencia que esta indicando la fecha. (4 puntos)

Línea del Ecuador – Meridiano de Greenwich

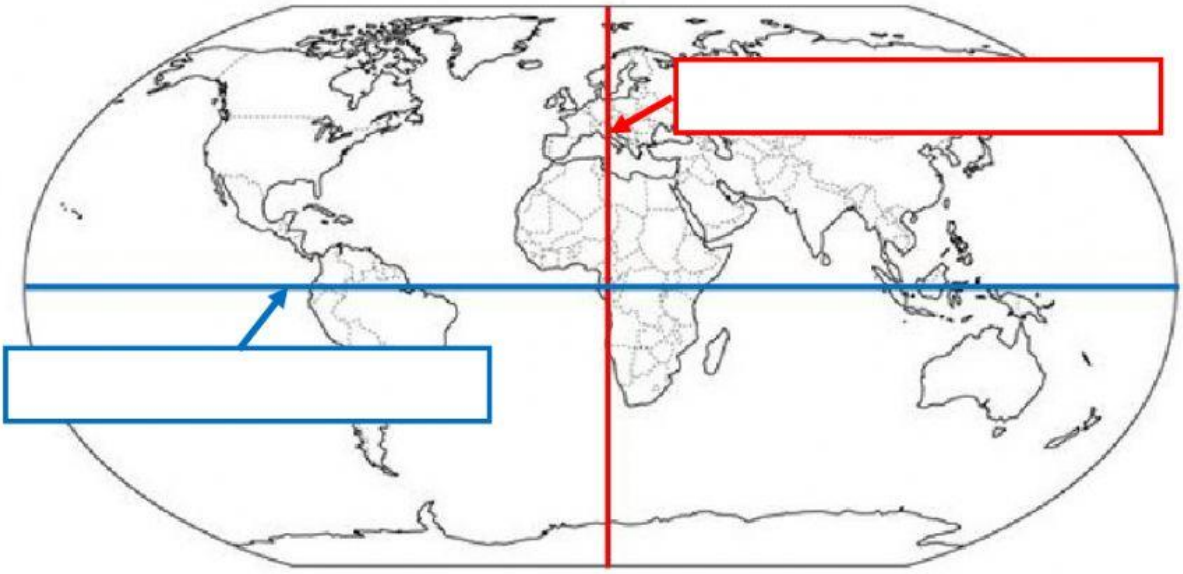

ITEM II. **DISTINGUE HEMISFERIOS.** Observa el mapamundi y reconoce el hemisferio donde se ubica cada símbolo. (4 puntos)

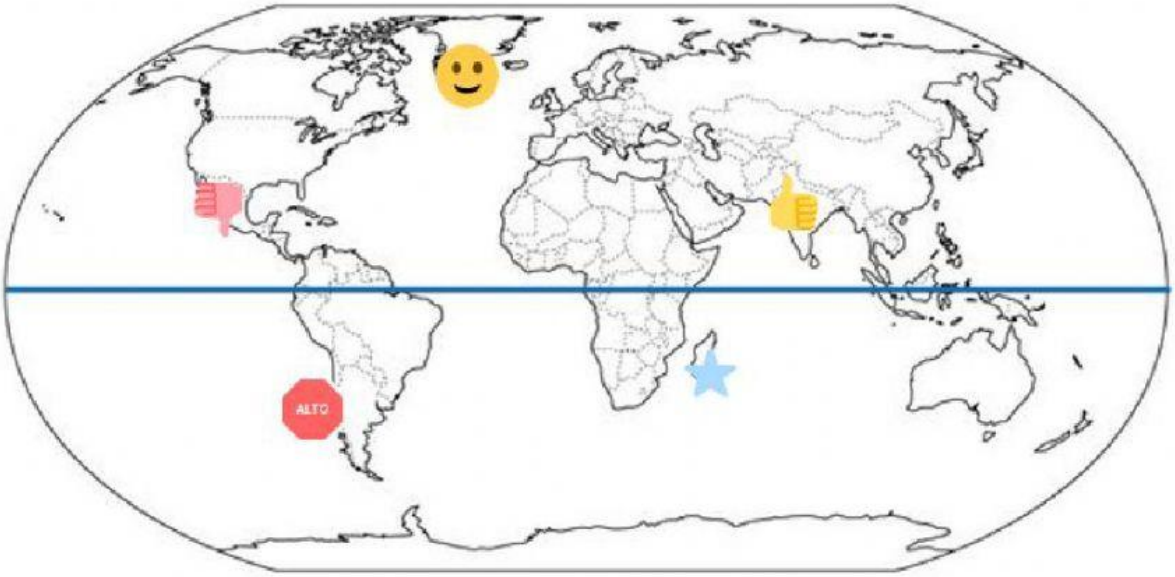

LIVEWORKSHEETS

Observa el mapamundi y teniendo en cuenta la línea azul, reconoce el hemisferio donde se ubica cada símbolo.

	Hemisferio
	Hemisferio
	Hemisferio
	Hemisferio

ITEM III. **<u>DISTINGUE FORMAS DE REPRESENTAR LA TIERRA</u>.** Completa el siguiente cuadro con los solicitado. (6 puntos)

	¿Qué es? Nombre de las imágenes	Menciona 2 características para cada uno.

LIVEWORKSHEETS

ITEM IV. ROTULA LOS CONTINENTES. Observa el mapamundi y reconoce los continentes. Para ello debes tomar y arrastrar el nombre al lugar que corresponde. (10 puntos)

OCEANÍA	ANTARTICA	ASIA
AMÉRICA	AFRICA	EUROPA

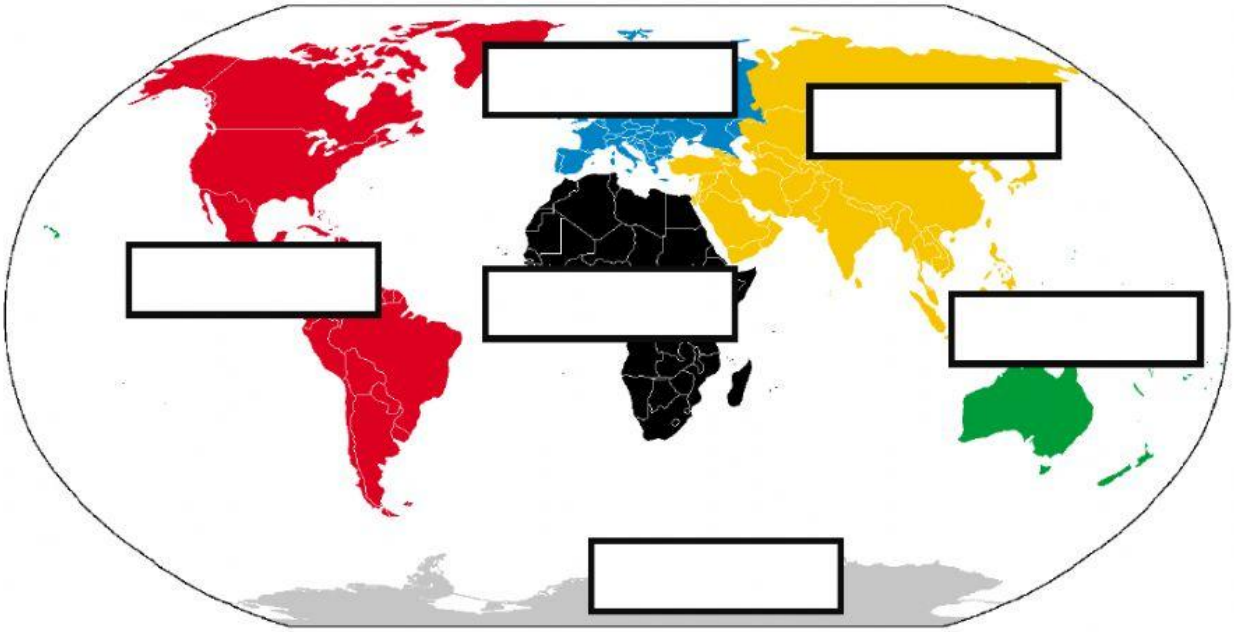

ITEM V. ALTERNATIVAS. Olee cada pregunta y selecciona la alternativa que consideres correcta (12 puntos)

1. **¿En qué continente se ubica Chile?**

   A. Oceanía.

   B. América.

   C. África.

2. **Es el continente más grande y poblado, se ubica al Este de Europa ¿De qué continente se trata?**

   A. Europa.

   B. América.

   C. Asía.

LIVEWORKSHEETS

3. **Es el continente blanco, es considerado una de las mayores reservas de agua dulce, se ubica al sur del Océano Austral ¿De qué continente se trata?**

   A. Oceanía.

   B. Antártica.

   C. América.

4. **Es el continente más pequeño, en este se ubica Australia y se encuentra al sur de Asia ¿De qué continente se trata?**

   A. Oceanía.

   B. Europa.

   C. Antártica.

5. **Este continente se ubica al sur de Europa y en este se encuentra Egipto y sus famosas pirámides. ¿De qué continente se trata?**

   A. Oceanía.

   B. África.

   C. Antártica.

6. **Observa el siguiente gráfico y responde:**
¿Cuál es el océano más grande del mundo?

   A. Océano Indico.

   B. Océano Atlántico.

   C. Océano Pacifico.

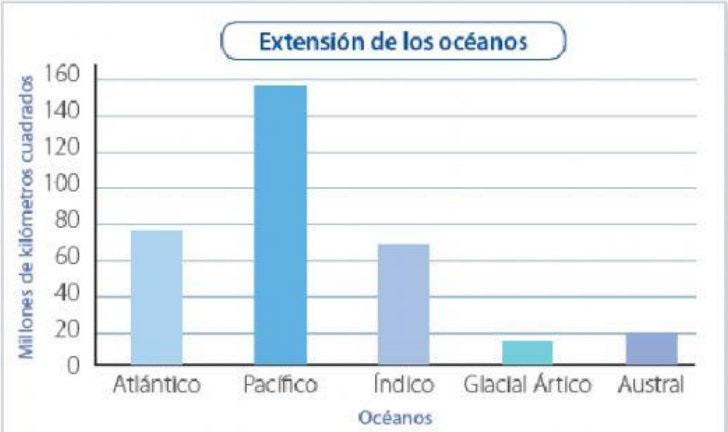

IGM (2018). *Atlas Geográfico para la Educación*. Santiago: IGM.

LIVEWORKSHEETS

AUTOEVALUA ¿CÓMO FUE TU DESEMPEÑO?

Marca la opción que consideres correcta, considerando las últimas cuatro semanas.

Criterios	Si	Más o menos	No
Soy capaz de reconocer las principales formas de representar nuestro planeta y las principales líneas de referencia de la tierra.			
Soy capaz de ubicar y rotular en mapa los continentes de la tierra.			
Soy capaz de reconocer o caracterizar de forma general los continentes y océanos.			
Asistí a clases virtuales y/o justifiqué mis inasistencias con mis profesora jefe o de Historia.			
Utilicé correctamente los recursos dispuestos en la sala virtual (cámara encendida, micrófono, chat)			
Me esforcé por prestar atención, participar y realizar las actividades en las clases virtuales.			
Repasé los contenidos cuando no los comprendí y antes de la evaluación formativa final.			
Trabajé de manera autónoma en mis actividades y solicite ayuda solo cuando la necesite.			

Comentario que deseas agregar de la asignatura

¡BUEN TRABAJO!

LIVEWORKSHEETS