م.إ . أسد بن الفرات منزل عبد الرّحمان بنزرت-تونس	نشاط في الإيقاظ العلمي المحتوى : السّلسلة الغذائيّة إعداد : سنية مراد وحنان سحيّق	المستوى : س5

التّعليمة 1: أنظّم الصور حسب العلاقة .



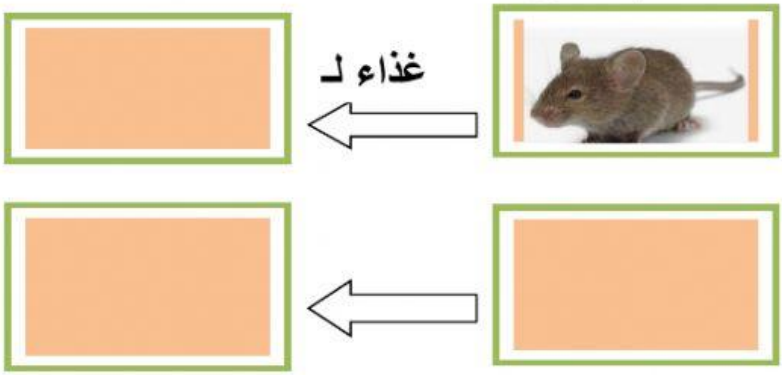

التّعليمة 2: أنظّم اللافتات حسب العلاقة المذكورة

التّعليمة 3: أشاهد المقطع التّالي ثمّ أنظّم اللافتات حسب العلاقة الغذائيّة المذكورة .

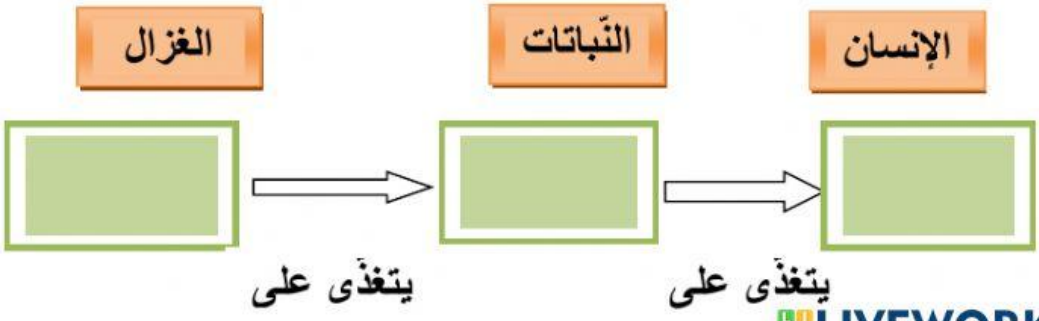

LIVEWORKSHEETS

التعليمة 4: أكوّن باللافتات سلسلة غذائيّة حسب العلاقة الغذائيّة المذكورة (غذاء لـ).

الأسماك | القرش | الأخطبوط

طحالب البحر ← [ ] ← [ ] ← [ ]

غذاء لـ غذاء لـ

التعليمة 5: أتأمّل السّلسلة الغذائيّة التّالية ثمّ أصل بخطّ .

الأسد ← الغزالة ← العشب

غذاء لـ غذاء لـ

- الغزالة ◆ ◆ المنتج للغذاء
- الأسد ◆ ◆ مستهلك من الدّرجة الثّانية
- العشب ◆ ◆ مستهلك من الدّرجة الأولى

التعليمة 6: ماذا يحدث عند الإفراط في صيد الغزال؟

.....

.....

التعليمة 7: أصلح الخطأ بإعادة ترتيب صور الحيوانات التّالية حسب العلاقة الغذائيّة

غذاء لـ

[ ] ← [ ] ← [ ] ← [ ] ← [ ]

غذاء لـ

LIVEWORKSHEETS