مجموعة المبدعون - الإسم :

أوجِدْ مِساحَةَ كُلِّ شَكْلٍ.

6.

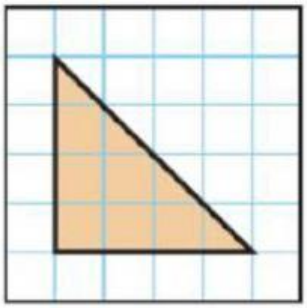

المِساحَةُ هِيَ _____ وحداتٍ مربّعةٍ.

10.

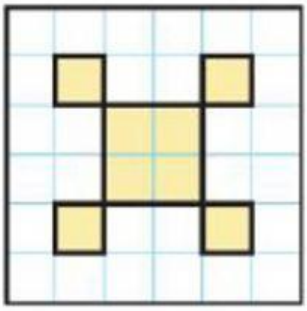

المِساحَةُ هِى _____ سنتيمترات مُربَّعةٍ

حلُّ المَسائِلِ

11. تَبني أُسْرَةُ عائشَة مَمرًّا حَجريًا حَولَ باحَتِهِمُ الخَلفيةِ. تُمَثِّلُ الوَحْدَةُ المُربَّعةُ الواحدةُ عَلى الرَّسمِ المَوجودِ عَلى اليَسارِ مِترًا مُربّعًا واحدًا مِنَ المَمرِّ الحَجريِّ. ما مساحةُ المَمرِّ الحَجَريِّ؟

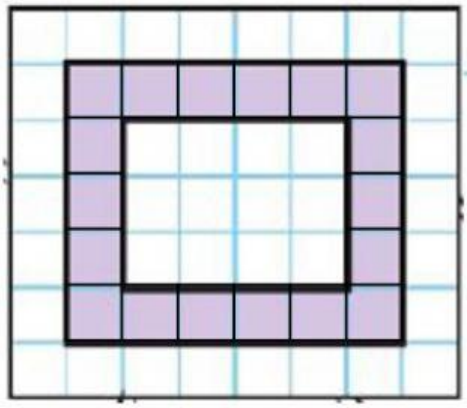

_____ مترا مربعا

LIVEWORKSHEETS