مجموعة المبتكرون - الإسم :

أَوجِدْ مُحيطَ كُلِّ شَكْلٍ.

6.

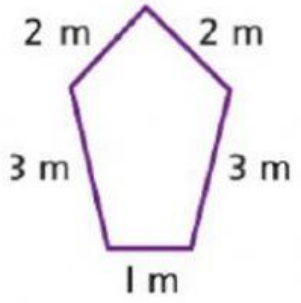

المُحيطُ هُو _____ مترًا.

5.

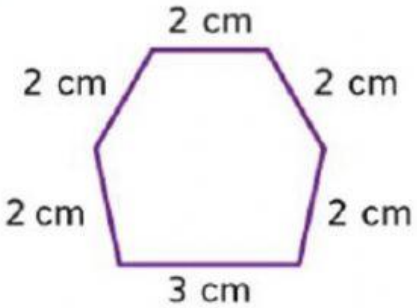

المُحيطُ هُو _____ سنتيمترًا.

الجبرُ أوْجِدْ طولَ الضِّلعِ المَجهولِ لِكُلِّ شَكْلٍ.
مُحيطُ كُلِّ شَكْلٍ هُوَ 50 cm.

10.

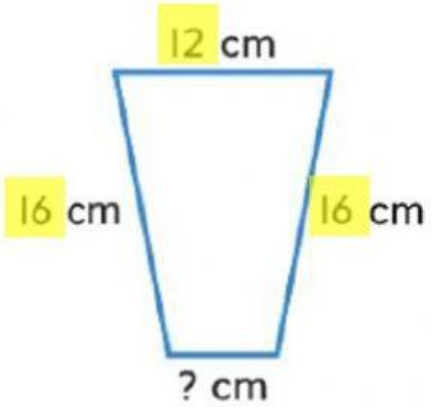

50

-

المَجهولُ هُوَ _____ سنتيمتراتٍ.

LIVEWORKSHEETS