LBO NATALES
Escuela Libertador Bernardo O'Higgins Riquelme
Eleuterio Ramírez 748 | 61 2 411586
escuelabohiggins@cormunat.cl | www.lbonatales.cl

Guía de trabajo Figuras 2D y 3D 3ºBásicos

Profesora: Wilma Velásquez / Paola Muñoz
Ed. Diferencial: Francisca Alarcón

I) Figuras 2D

1 Completa.

a. 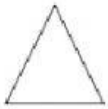

- Tiene ____ lados.
- Su nombre es _____.

b.

- Tiene ____ lados.
- Su nombre es _____.

c.

- Tiene ____ lados.
- Su nombre es _____.

2 Relaciona.

a. Tiene 4 lados de igual medida. ○

b. Tiene 4 lados. Sus lados opuestos tienen igual medida. ○

c. Tiene 3 vértices. ○

d. Esta figura se forma con una línea curva. ○

LIVEWORKSHEETS

LBO NATALES
Escuela Libertador Bernardo O'Higgins Riquelme
Eleuterio Ramírez 748 | 61 2 411586
escuelabohiggins@cormunat.cl | www.lbonatales.cl

II) Figuras 3D

1 Completa.

	Figuras 3D	Figuras 2D que se ven en sus caras	Cantidad de caras planas	Cantidad de vértices
a.				
b.				
c.				

2 ¿Qué figura 3D es?

a. Tiene una cara curva.

b. Tiene 6 caras planas iguales y todas sus aristas miden lo mismo.

c. Tiene una base circular y una cúspide.

LIVEWORKSHEETS

LBO NATALES
Escuela Libertador Bernardo O'Higgins Riquelme
Eleuterio Ramírez 748 | 61 2 411586
escuelabohiggins@cormunat.cl | www.lbonatales.cl

III) Identificamos figuras

1 **Identifica** la figura 2D y márcala

a. Tiene 4 lados de igual medida y 4 vértices.

b. Esta figura no tiene lados.

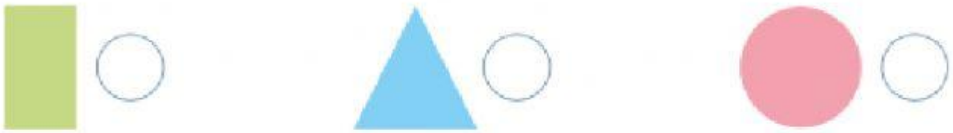

2 **Identifica** la figura 3D y márcala

a. Tiene una cúspide, una cara plana y una cara curva.

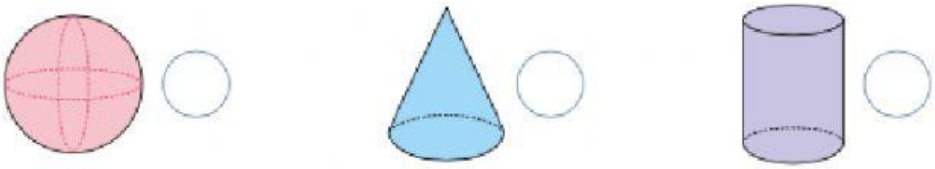

b. Tiene 8 vértices, 12 aristas y 6 caras planas iguales.

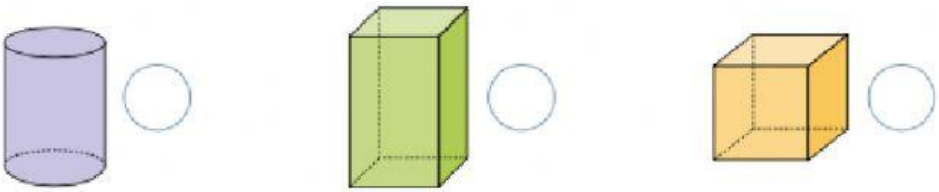

LIVEWORKSHEETS

LBO NATALES
Escuela Libertador Bernardo O'Higgins Riquelme
Eleuterio Ramírez 748 | 61 2 411586
escuelabohiggins@cormunat.cl | www.lbonatales.cl

Identifica dos figuras y márcalas

a. Ambas tienen seis caras planas.

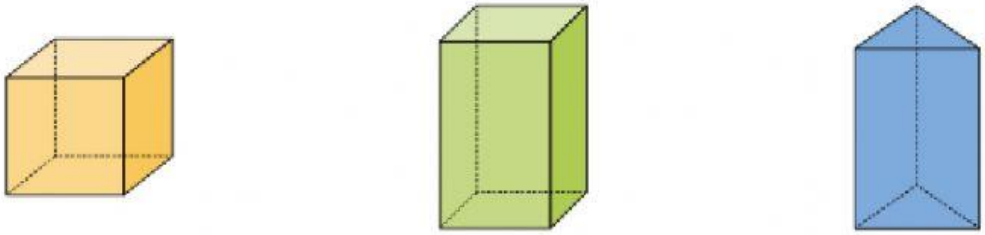

b. Ambas tienen 4 vértices y 4 lados.

c. Ambas tienen, al menos, una cara plana.

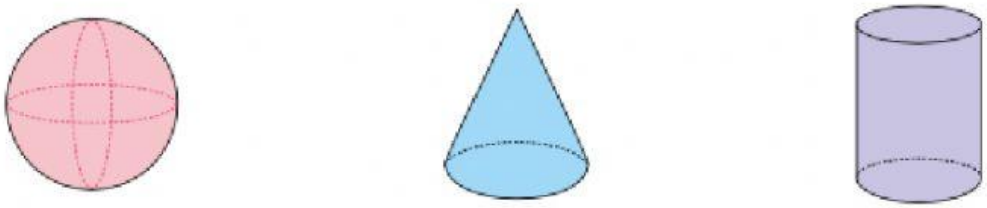

LIVEWORKSHEETS