Evaluación de cierre

Números hasta 19 / Secuencias / Figuras geométricas

Nombre y apellidos: _____ **Año y sección:** _____

Interpreta y representa números hasta 19

1. ¿Cuál es la representación del número 16?

A



B

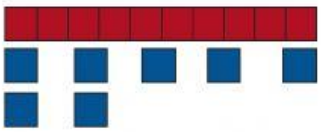

C



2. ¿Qué alternativa tiene una decena de elementos?

A

B

C

Compara y ordena números

3. ¿Qué alternativa es correcta?

A

B

C

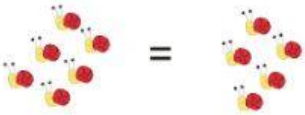

4. Ordena de mayor a menor los siguientes números.

14 17 15 19

A 14 15 17 19

B 19 17 15 14

C 17 19 14 15

5. ¿Cuál es el antecesor de 18?

16 A

19 B

17 C

Reconoce figuras geométricas

6. ¿Cuántos rectángulos observas?

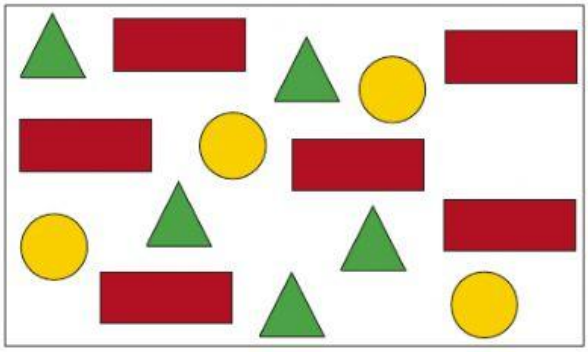

6 A

5 B

4 C

SANTILLANA
LIVEWORKSHEETS

7. ¿Qué figura tiene 8 lados?

A

B

C

8. ¿Qué figura continúa la serie?



A

B

C

Procesa la información

9. Mamá horneó 6 galletas de chocolate y 5 de avena. ¿Cuántas galletas hornó en total?

12 A

11 B

10 C

10. Daniel tiene una colección de 14 carritos. Si por su cumpleaños le regalan 4 más, ¿cuántos carritos tendrá en total?

A 12

B 11

C 18

11. En una pecera hay 5 peces dorados, 7 plateados y 3 atigrados. ¿Cuántos pecesitos hay en la pecera?

A 12

B 11

C 15

12. Si tengo 3 caramelos, ¿cuántos me faltan para tener una decena?

A 13

B 7

C 10

13. Juan invitó a 19 amiguitos a su fiesta. Si aún faltan 4 de ellos, ¿cuántos amigos de Juan están en la fiesta?

A 16

B 15

C 13

SANTILLANA
LIVEWORKSHEETS