EVALUACIÓN DE NATURALES
TEMA: SISTEMA RESPIRATORIO Y ENFERMEDADES

1. UBICA LAS PARTES DEL SISTEMA RESPIRATORIO

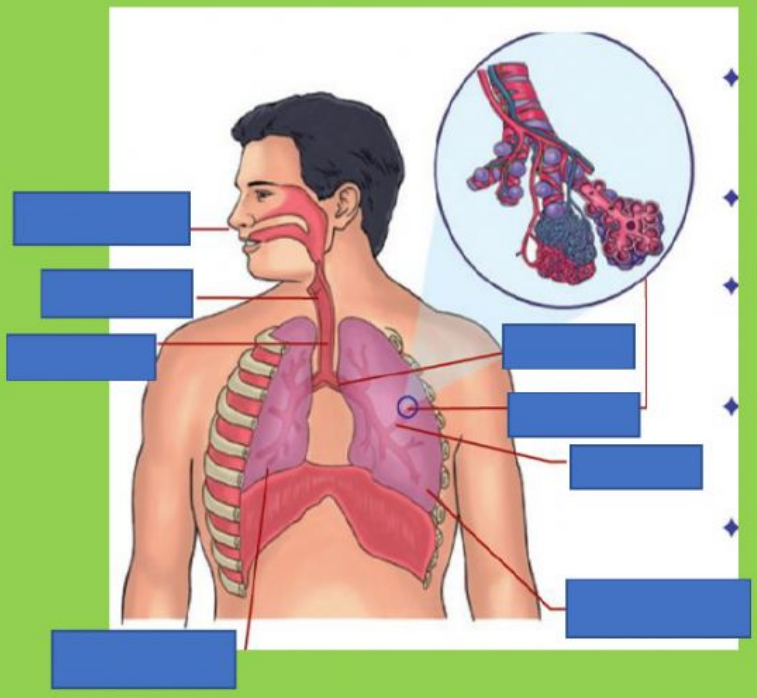

NARIZ
TRÁQUEA
LARINGE
BRONQUIOS
ALVÉOLOS
BRONQUIOLOS
PULMÓN DERECHO
PULMÓN IZQUIERDO

2. UBICA DEBAJO DE CADA ORGANO SU DEFICINICIÓN Y SU IMAGEN

Fosas nasales	Bronquios	BRONQUIOLOS	PULMONES

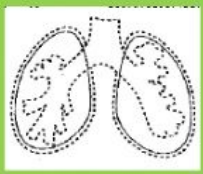

1 Tubos pequeños que provieren de los bronquios y terminan en unas bolsas llamadas alveolos.

2 Conductos en que se divide la tráquea.

3 En ellos se purifica el aire que llega con bióxido de carbono y sale oxigenado.

7 Por ellas penetra el aire. Sus vellos internos detienen el polvo y los microbios.

3. ESCRIBE VERDADERO (V) O FALSO (F) SEGÚN CORRESPONDA

A) EL AIRE ESTÁ POBLADO POR MILLONES DE BACTERIAS. ( )

B) EN LOS BRONQUIOS SE PRODUCE EL INTERCAMBIO GASEOSO. ( )

C) SE RECOMIENDA DESABRIGARSE EN LUGARES HÚMEDOS. ( )

4. RESUELVE EL CRUCIGRAMA.

1. SON LOS ÓRGANOS MÁS GRANDES DE CUERPO
2. SON LOS SACOS TERMINALES DEL ÁRBOL BRONQUIAL
3. SON TUBOS CON RAMIFICACIONES.
4. EL ORGANISMO TOMA DEL AIRE Y DESPRENDE EL DIÓXIDO DE CARBONO.

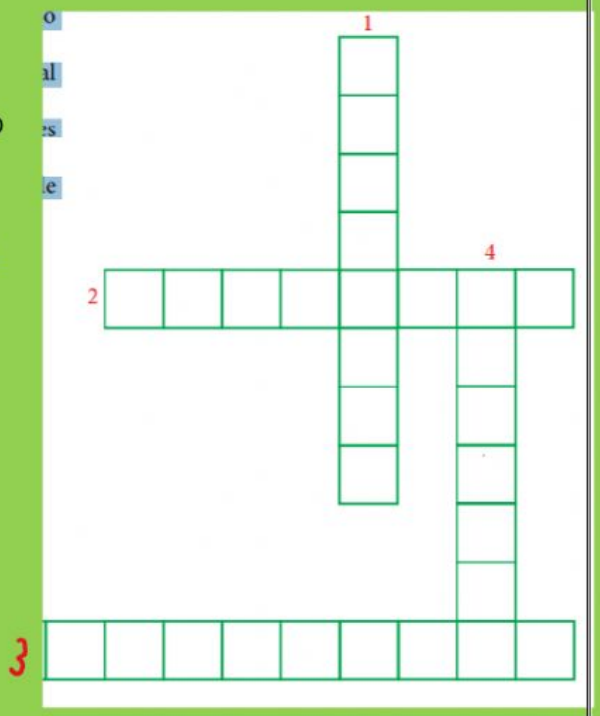

5. UNE CON UNA LÍNEA LAS ENFERMEDADES CON SUS SINTOMAS

ENFERMEDADES
AMIGDALITIS
RINOFARINGITIS
PULMONÍA
BRONQUITIS

SINTOMAS
PROVOCA FIEBRE, DOLOR EN EL SITIO AFECTADO Y TOS.
PROVOCA TOS, FATIGA, DIFICULTAD PARA RESPIRAR.
DOLOR DE GARGANTA, DIFICULTAD PARA COMER, TOS, DOLOR DE CABEZA, DOLOR MUSCULAR, FIEBRE.
OBSTRUCCIÓN NASAL, ESTORNUDOS, DOLOR FARÍNGEO Y TOS.

6. ELIGE LAS ACCIONES QUE TE AYUDAN A PROTEGER TU SISTEMA RESPIRATORIO