Penilaian Harian Matematika

Pengumpulan dan Penyajian Data

Kelas 5B

Nama/No.Absen:

SENIN, 17 MEI 2021

Pilihan Ganda

Level 2

A. Berikan tanda silang (×) pada jawaban yang paling tepat.

1. Sebuah penelitian memperoleh data dengan cara mengamati tingkah laku seseorang. Pengumpulan data tersebut adalah dengan cara . . . .
   a. wawancara
   b. pengamatan
   c. eksperimen
   d. percobaan

2. Perhatikan diagram tingkat kelulusan SD Sukmaja berikut.

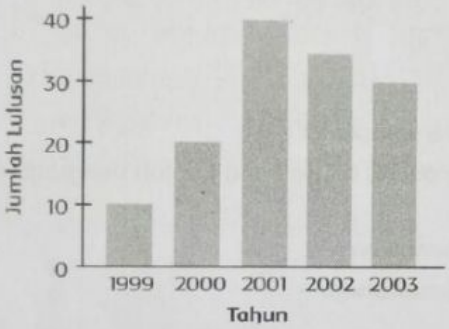

   Selisih lulusan pada tahun 2001 dan 2003 adalah . . . .
   a. 40 orang
   b. 30 orang
   c. 20 orang
   d. 10 orang

Perhatikan diagram garis berikut untuk menjawab soal 3 sampai 7.

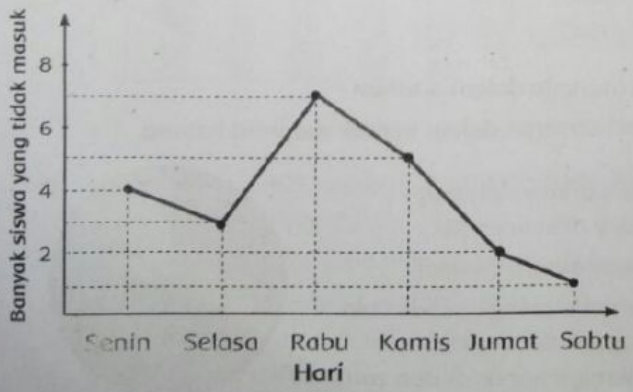

3. Jumlah siswa yang tidak masuk sekolah pada hari Kamis adalah . . . .
   a. 4 orang
   b. 5 orang
   c. 6 orang
   d. 7 orang

4. Jumlah siswa yang tidak masuk sekolah pada hari Selasa adalah . . . .
   a. 2 orang
   b. 3 orang
   c. 4 orang
   d. 5 orang

5. Selisih jumlah siswa yang tidak masuk sekolah pada hari Senin dan Sabtu adalah . . . .
   a. 3 orang
   b. 4 orang
   c. 2 orang
   d. 1 orang

6. Siswa tidak masuk sekolah paling banyak terjadi pada hari . . . .
   a. Senin
   b. Selasa
   c. Rabu
   d. Kamis

7. Jumlah siswa yang tidak masuk dalam seminggu berjumlah . . . .
   a. 19 orang
   b. 20 orang
   c. 21 orang
   d. 22 orang

8. Perhatikan tabel jumlah kecelakan pada 6 bulan berikut.

Bulan	Banyaknya Kecelakaan
Januari	50
Februari	45
Maret	50
April	35
Mei	58
Juni	50

Jumlah kecelakaan paling banyak dan paling sedikit terjadi pada bulan . . . . .
   a. Mei dan April
   b. Juni dan April
   c. Maret dan Februari
   d. Mei dan Februari

9. SD Tritura mempunyai 124 siswa. Siswa kelas I berjumlah 26 orang, kelas II berjumlah 22 orang, kelas III berjumlah 18 orang, kelas IV berjumlah 20 orang, kelas V berjumlah 22 orang, dan kelas VI berjumlah 16 orang. Diagram batang yang benar untuk data tersebut adalah . . . .

a.

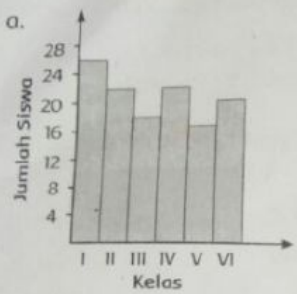

c.

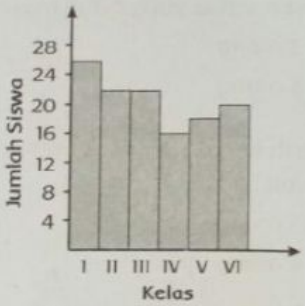

b.

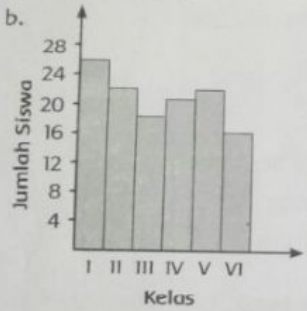

d.

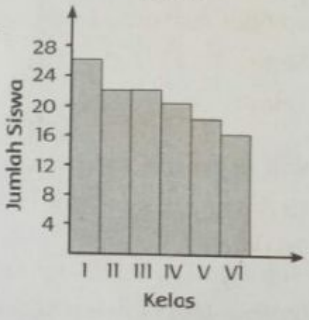

Perhatikan diagram berikut untuk menjawab soal nomor 10 dan 11.

Data jumlah siswa SD Sukamaju

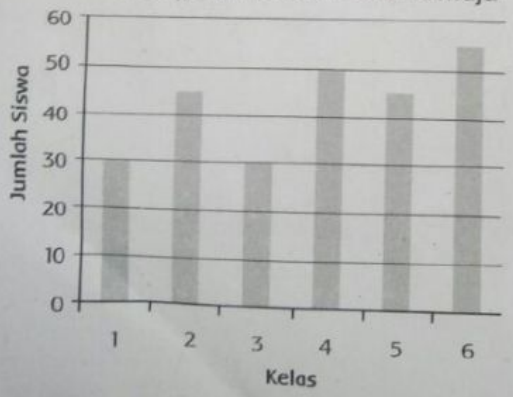

10. Jumlah siswa SD Sukamaju adalah . . . . .
   a. 255 orang
   b. 265 orang
   c. 275 orang
   d. 285 orang

11. Jumlah siswa terbanyak terdapat pada kelas . . . .
   a. 3
   b. 4
   c. 5
   d. 6

Perhatikan data berikut untuk menjawab soal nomor 12 sampai 14.

Data nilai hasil ulangan matematika kelas V

Nilai	Jumlah
5	
6	
7	
8	

12. Jumlah siswa yang mendapatkan nilai 6 adalah . . . .
   a. 2 orang
   b. 6 orang
   c. 10 orang
   d. 8 orang

13. Jumlah siswa kelas V adalah . . . .
   a. 26 orang
   b. 28 orang
   c. 30 orang
   d. 32 orang

14. Selisih banyak siswa yang mendapatkan nilai 7 dengan nilai 5 adalah . . . .
   a. 2 orang
   b. 4 orang
   c. 6 orang
   d. 8 orang

15. Perhatikan grafik jumlah produksi PT Sumber Sari berikut.

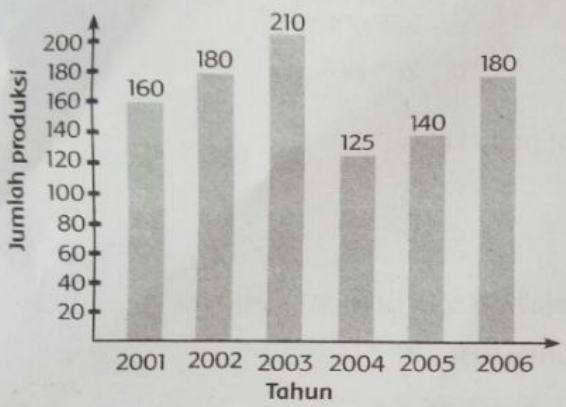

Jumlah peningkatan produksi terbesar terjadi antara tahun . . . .

a. 2001 dan 2001
b. 2002 dan 2003
c. 2004 dan 2005
d. 2005 dan 2006

DROP-DOWN

B. Isilah titik-titik di bawah ini dengan jawaban yang tepat.

Perhatikan diagram berikut untuk menjawab soal nomor 1 sampai 3.

Data hasil produksi bawang merah Perusahaan Murni.

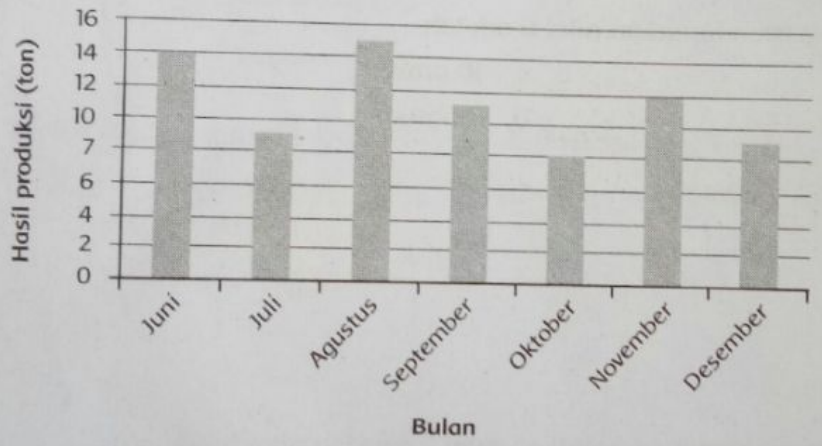

1. Hasil produksi bawang merah terbanyak terjadi pada bulan . . . .

2. Selisih antar jumlah panen terbanyak dan tersedikit adalah . . . .

3. Penurunan produksi bawang terbesar terjadi pada bulan . . . .

Perhatikan diagram garis berikut untuk menjawab soal nomor 4 sampai 6.

Data pembeli buku di Toko Buku Sejahtera.



4. Jenis buku yang paling sedikit pembelinya adalah . . . .
5. Jumlah pembeli yang membeli buku anak berjumlah . . . .
6. Selisih banyak pembeli yang membeli buku sejarah dengan novel sebanyak . . . orang.

Perhatikan data berikut untuk menjawa soal nomor 7 sampai 9.

Data Nilai Ulangan Bahasa Indonesia Siswa Kelas 5

Nilai	Jumlah
5	☺☺☺
6	☺☺☺☺☺☺
7	☺☺☺☺☺☺☺
8	☺☺☺☺☺☺☺☺☺
9	☺☺☺
10	☺☺

☺ = mewakili 1 orang

7. Siswa yang mendapatkan nilai 7 berjumlah . . . .
8. Siswa yang mendapatkan nilai kurang dari 8 berjumlah . . . orang.
9. Selisih jumlah siswa yang memiliki nilai 6 dan 10 adalah . . . .

10. Perhatikan hasil penimbangan badan dari 15 siswa berikut (dalam kg).

    26, 21, 20, 26, 25

    24, 26, 27, 19, 20

    26, 20, 21, 23, 27

    Dari data di atas, berat badan siswa yang terendah adalah . . .
    dan tertinggi adalah . . . .

Perhatikan Tabel Garis Berikut Untuk Menjawab soal menjohkan di Bawahnya

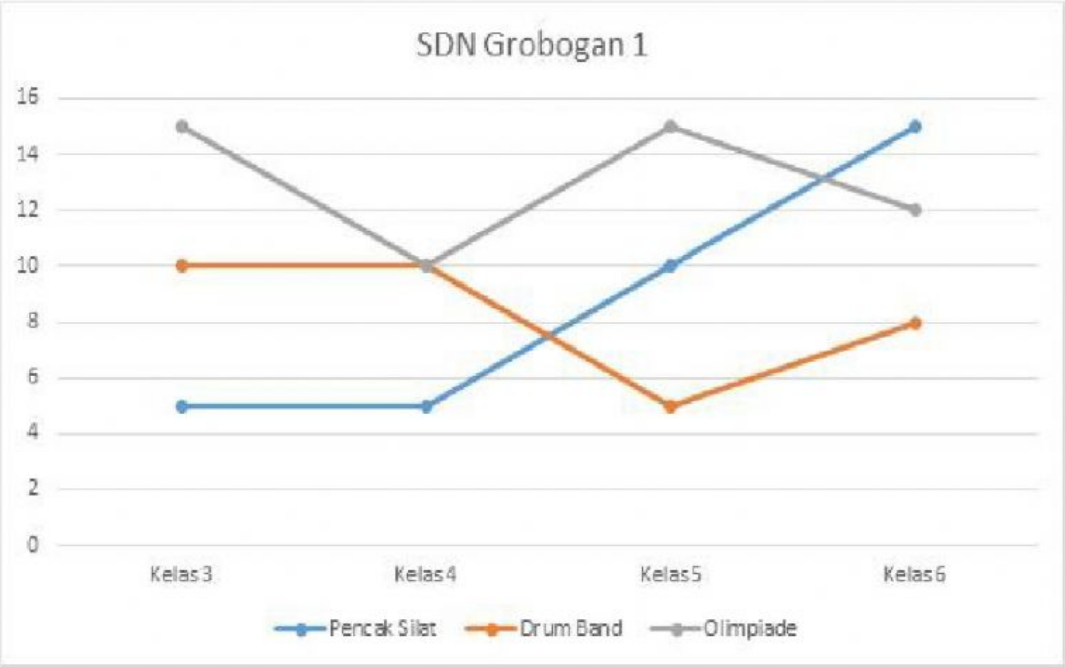

Kelas 3

Kelas 3 Pencak Silat

10 Orang

Kelas 3 Drumband

15 Orang

Kelas 3 Olympiade

5 Orang

Kelas 4

Kelas 4 Pencak Silat

10 Orang

Kelas 4

5 Orang

Kelas 4 Olympiade

10 Orang

Kelas 5

Kelas 5 Pencak Silat

5 Orang

Kelas 5 Drumband

10 Orang

Kelas 5 Olympiade

15 Orang

Kelas 6

Kelas 6 Pencak Silat

8 Orang

Kelas 6 Drumband

15 Orang

Kelas 6 Olympiade

12 Orang