ESCUELA DE EDUCACIÓN BÁSICA "HÉROES DE JAMBELÍ"

PRUEBA DE DIAGNOSTICO DE MATEMÁTICA

NOMBRE: _____ PARALELO _____

PROFESORA:_____

1.- El mínimo común múltiplo entre 12 y 18 es:

A. 12
B. 18
C. 54
D. 36

2.- El número romano de 100 es:

A. V
B. C
C. D
D. X

3.- Los dos números primos cuya suma es 32 son:

A. 7 y 25
B. 11 y 21
C. 17 y 15
D. 13 y 19

4.- ¿Cuántas centenas hay en 5 unidades de mil?

A. 100
B. 50
C. 500
D. 10

5.-SI En una caja hay 10 lápices de colores.

¿Cuántos lápices de colores habrá en 55 cajas?

A. 450
B. 65
C. 55
D. 550

LIVEWORKSHEETS

6.- Relaciona el tipo de triángulo con su imagen

Tipo de triángulo	Imagen
1. Equilátero	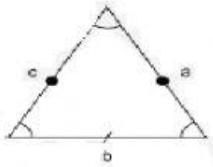
2. Isósceles	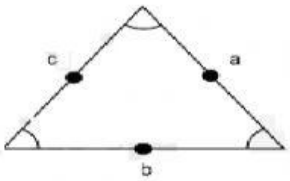
3. Escaleno	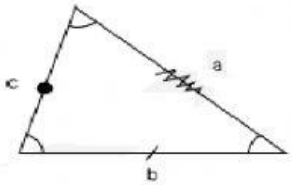

7.- Ayer tenía 16 años y el próximo año tendré 17 años. Si el día de mañana cumplo años. ¿En qué día y mes nací?

A. 28 de Febrero
B. 01 de Marzo
C. 29 de Febrero
D. 01 de Enero
E. 31 de Diciembre

8.- Relacione los pares de cantidades de cuatro dígitos tanto en números como en letras.

1. 4.008	**a.** Mil doscientos treinta y cinco
2. 6.400	**b.** Dos mil trecientos cincuenta y uno
3. 2.351	**c.** Cuatro mil ocho
4. 1.235	**d.** Seis mil cuatrocientos

9.- Ordena de menor a mayor los siguientes números.

107 65 , 1 067 , 897 , 105 , 1 055 , 76

A. 76 , 65 , 105 , 107 , 897 , 1 055 , 1 067
B. 105 , 897 , 1 067 , 1 055 , 76 , 65 , 107

LIVEWORKSHEETS

C. 65 , 76 , 105 , 107 , 897 , 1 055 , 1 067

D. 1 055 , 1 067 , 107 , 65 , 76 , 897 , 105

10.- Se requiere hacer un informe sobre las notas finales obtenidas por los estudiantes de un curso, las cuales se representan en la tabla:

Notas	5	6	7	5	6	5	4	7	8	9	6	5	7	8	7

Con base a la información si se desea presentar las notas en un diagrama, ¿Cuál es el diagrama a presentar?

1)

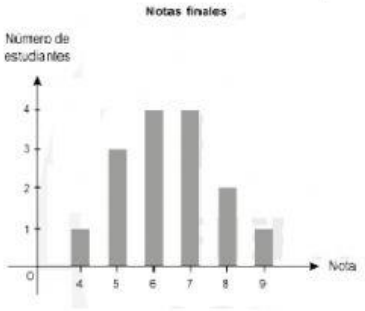

2)

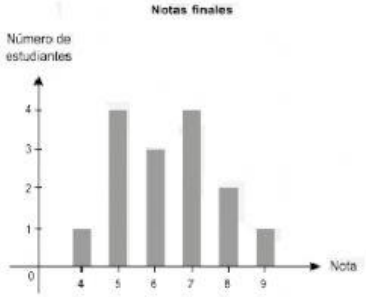

3)

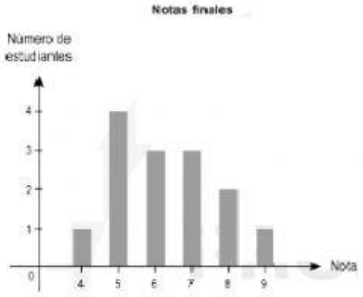

4)

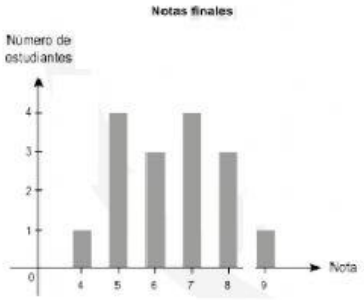

LIVEWORKSHEETS