ESCUELA DE EDUCACIÓN BÁSICA PARTICULAR

PATRIA SOBERANA

PRUEBA DE DIAGNÓSTICO

CURSO: CUARTO ASIGNATURA: MATEMÁTICA

1. Escojo la escritura correcta del número: vale 1 punto:

A.- Trescientos dos

B.- Novecientos cincuenta

C.- Novecientos treinta y siete

937

2.-Completo la secuencia con los números ordinales que faltan. Vale 1 punto:

11°	12°		14°		16°	17°	

A.-13°, 15°, 18°

B.- 18°,13°, 15°

C.- 15°,18°, 13°,

3.-Escojo la respuesta correcta de la adición 125+274 y la sustracción 982 - 494 Vale 1 punto:

	C	D	U
+			

	C	D	U
-			

OPCIONES

A.- 199, 598

B.- 399, 488

C.- 499, 389

4.-Reconozca el nombre de las siguientes rectas. Vale 1 punto

A. paralela y secante

B. perpendicular y secante

C. paralela y perpendicular



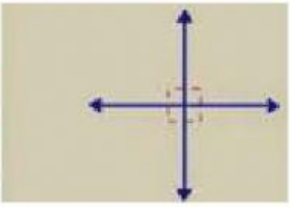

LIVEWORKSHEETS

5.-Escojo la respuesta correcta para completar la pregunta Vale 1 punto

_¡Qué hora está marcando el reloj?_____

A. 13: 09 minutos

B. 10: 09 minutos

C. 11: 10 minutos

6.-Relaciono con línea el multiplicando con el producto total. vale 1 punto.

1.	7
2.	6
3.	8

X5

a.	40
b.	35
c.	30

Opciones

A.-3c, 1a, 2b

B.-2a, 3b,1c

C.-1b, 2c, 3ª

7.-Relacione el ángulo con su respectivo nombre. Vale 1 punto

1.

2.

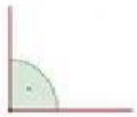

3.

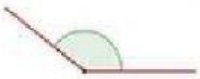

a. obtuso

b. recto

c. agudo

Opciones

A.-3b, 1a, 2c

B.-2a, 3c, 1b

C.-1c, 2b, 3a

8.-Escojo el literal que muestra la multiplicación representada en el siguiente gráfico. Vale 1 punto.

OPCIONES

1.- 3 X 6 =

2.- 4 X 6 =

3.- 6 X 4 =

LIVEWORKSHEETS

9.-Escoja la descomposición correcta de la siguiente cantidad de tres cifras. Vale 1 punto

A. 5U, 2D, 6C

B. 5C, 6D, 2U

C. 6C, 5D, 2U

562

10.-Elijo la respuesta correcta para completar el calendario. Vale 1 punto.

Enero			Abril
Mayo		Julio	Agosto
Septiembre	Octubre		Diciembre

Opciones

A.-Marzo, Junio, Septiembre, Octubre

B.-Febrero, Marzo, Junio, Noviembre

c.-Enero, febrero, Marzo, Abril

LIVEWORKSHEETS