Observa el triángulo rectángulo:

Si llamamos C al ángulo Recto, y A y B a los ángulos agudos respectivamente, podemos darle un nombre a cada cateto para distinguirlo del otro, tomando como referencia un ángulo agudo, ejemplo:

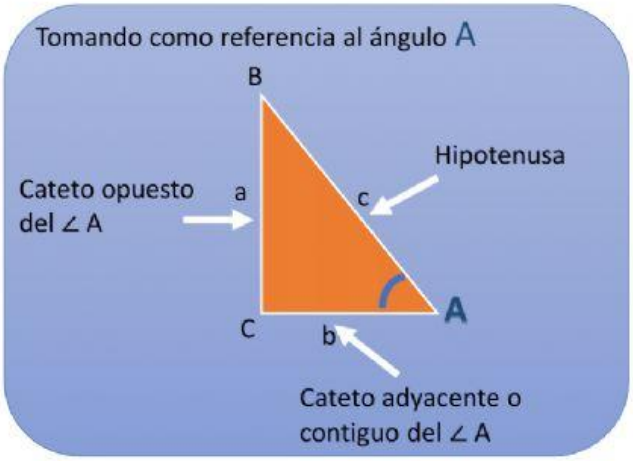

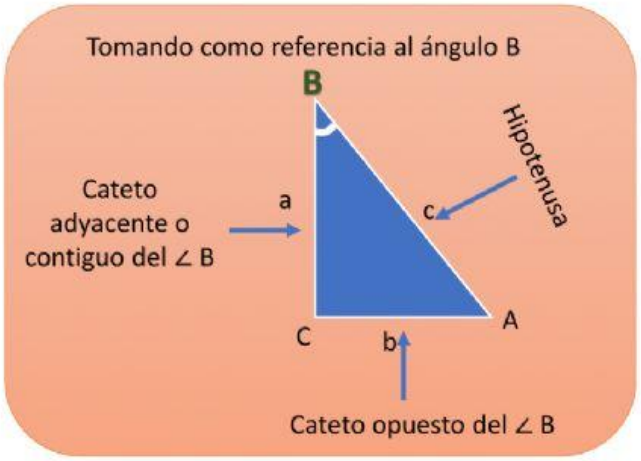

LIVEWORKSHEETS

Contesta lo que se te pide, después de observar detenidamente los dibujos.

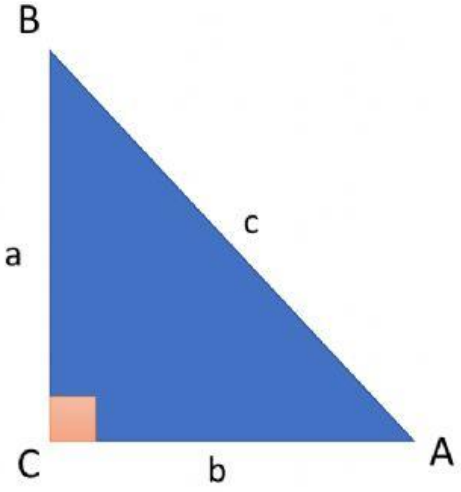

a) ¿Cuál es el cateto adyacente al $\angle A$?

b) ¿Cuál es el cateto adyacente al $\angle B$?

c) ¿Cuál es el cateto opuesto al $\angle A$?

d) ¿Cuál es el cateto opuesto al $\angle B$?

LIVEWORKSHEETS

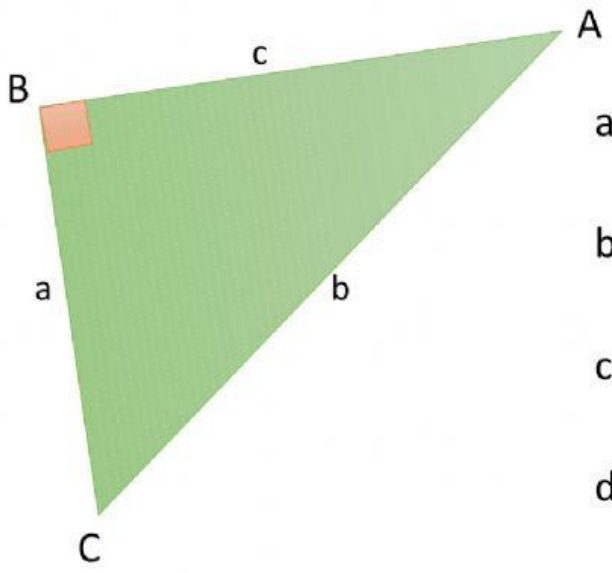

a) ¿Cuál es el cateto adyacente al $\angle A$?

b) ¿Cuál es el cateto adyacente al $\angle C$?

c) ¿Cuál es el cateto opuesto al $\angle A$?

d) ¿Cuál es el cateto opuesto al $\angle C$?

LIVEWORKSHEETS