86.orria

13. Adierazi taulen kolore bakoitzean % zenbat dagoen margotuta.

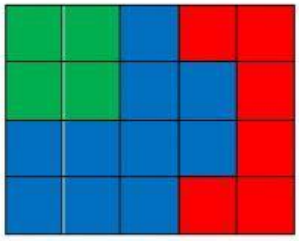

- Zein da zati berdearen zatikia?

4/16	6/16
4/20	6/20

- Zein da zati berdearen zatiki laburtezina?

1/4	3/8
1/5	3/10

- Zein da zati berdearen % ?

%25	%37,5
%20	%30

LIVEWORKSHEETS

14.-Osatu taula hau.

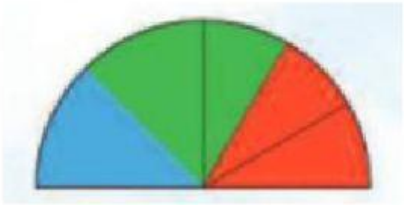

- Zenbat gradu ditu irudi honek?

90º	45º
360º	180º

- Zenbat gradu ditu irudi urdinak?

45º	55º
60º	75º

- Zein da zati urdinaren zatikia?

45/360	60/180
60/360	45/180

LIVEWORKSHEETS

- Zein da zati urdinaren % ?

%20	%25
%30	%35

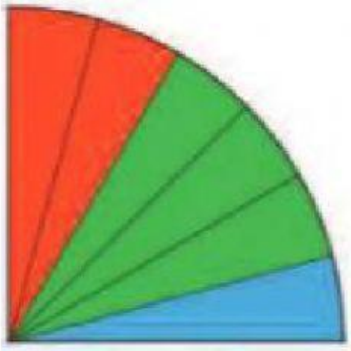

- Zenbat gradu ditu irudi honek?

90º	45º
180º	360º

- Zenbat gradu ditu zati gorriak?

15º	30º
45º	60º

LIVEWORKSHEETS

- Zein da zati gorriaren zatikia?

45/180	45/90
30/90	30/180

- Zein da zati gorriaren ehunekoa?

%50	%16.67
%25	%33.33

15.- Esan laukizuzen honetan, agintzen diren portzentaiak kontuan hartuz zenbat laukitxo margotuko genituzkeen.

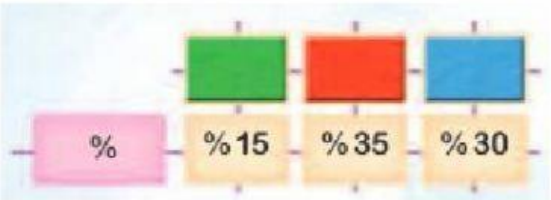

- Lauki berdeak, _____ margotuko ditugu.
- Lauki gorriak, _____ margotuko ditugu.
- Lauki urdinak, _____ margotuko ditugu.

LIVEWORKSHEETS

17.-Zortzi persona ez oso burutsuk "pozoia" markako 20na zigarroko pakete bana erosi dute. Esan paketearen zenbateko partea erre duten horietako bakoitzak.

	1	2	3	4
Erretako zigarroak	5	6	10	8
%				

- Lehenengo pertsonak, 5 zigarro erre ditu. Pakete guztiaren ehuneko zenbat erre du?

%10	%15	%20	%25
%30	%35	%40	%50

- Bigarrengo pertsonak, 6 zigarro erre ditu. Pakete guztiaren ehuneko zenbat erre du?

%10	%15	%20	%25
%30	%35	%40	%50

LIVEWORKSHEETS

- Hirugarrengo pertsonak, 10 zigarro erre ditu. Pakete guztiaren ehuneko zenbat erre du?

%10	%15	%20	%25
%30	%35	%40	%50

- Laugarrengo pertsonak, 8 zigarro erre ditu. Pakete guztiaren ehuneko zenbat erre du?

%10	%15	%20	%25
%30	%35	%40	%50

LIVEWORKSHEETS