EGITO ANTIGO

1. Localize e escreva no mapa: África, Egito, Mar Mediterrâneo, Rio Nilo, Mar Vermelho.

2. Complete as frases e ligue até a figura correspondente:

O rio _____ era muito importante para os _____ pois fornecia a ___ para beber, pesca, e ainda fertilizava as margens possibilitando a prática da _____



O _____ era o rei do Egito Antigo. Possuía poderes absolutos na sociedade, decidindo sobre a vida política, religiosa, econômica e militar. Ele era considerado um _____

De acordo com a _____ egípcia, a alma da pessoa necessitava de um corpo para a vida após a morte. Portanto, devia-se preservar este corpo para que ele recebesse de forma adequada a alma. Por isso, eles _____ seus _____

LIVEWORKSHEETS

3. Assista o vídeo a seguir e escreva certo ou errado nas frases:

https://www.youtube.com/watch?v=0RaXqodVzAc

a) O rio Nilo não teve nenhuma importância para o desenvolvimento da civilização egípcia. _____

b) "O Egito é uma dádiva do Nilo" é uma frase do historiador grego Heródoto. _____

c) O shaduf era um instrumento de castigo que era aplicado nos camponeses que não obedeciam ao faraó. _____

d) Foi graças à fertilidade provocada pelas enchentes do rio Nilo que a sociedade egípcia pode se desenvolver numa das regiões mais áridas do mundo. _____

e) O povo do Egito não precisou trabalhar muito, pois o rio Nilo fornecia tudo o que precisavam. _____

f) O shaduf era um instrumento de irrigação que facilitava a vida dos camponeses do Egito. _____

g) A vida do povo egípcio acontecia em volta do rio Nilo. _____

h) O povo egípcio não praticava a agricultura pois moravam no meio do deserto do Saara e não tinha como plantar. _____

i) As nascentes do rio Nilo ficam no contente europeu, por isso ele não seca. _____

4. Escreva o nome nas imagens correspondentes: múmia – pirâmides - papiro – shaduf – faraó





LIVEWORKSHEETS