Эзлэхүүн сорил

1. Кубын ирмэг 6 см бол эзлэхүүний хэмжээ хэдэн см.куб хэмжээтэй вэ?

   А. 12
   Б. 24
   В. 144
   Г. 216

2. Өгсөн призм хэдэн талстай вэ?

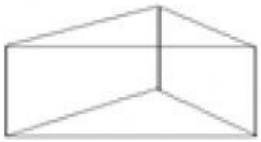

   А. 4
   Б. 12
   В. 6
   Г. 5

3. Квадратын периметр нь 280 см бол түүний талбайн хэмжээг олоорой.

   А. 70 см
   Б. 140 см
   В. 490 см.кв
   Г. 4900 см.кв

4. Кубын тал нь 5м бол эзлэхүүнийг олно уу?

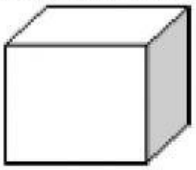

   А. 25м.кв
   Б. 100 см.куб
   В. 150 см.кв
   Г. 125 м.куб

5. Параллелепипедын эзлэхүүнийг олно уу?

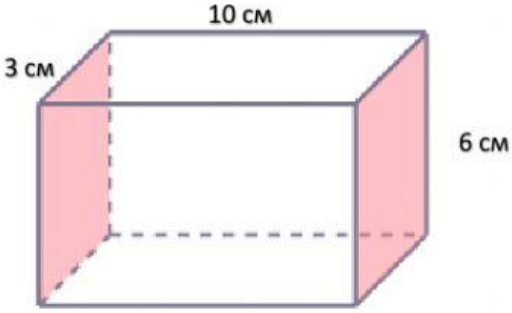

   А. 36 см.кв
   Б. 180 см.куб
   В. 180 см.кв
   Г. 76 см.куб

LIVEWORKSHEETS