الهدف	ما هي مبادئ تقدير العمر النسبي ؟	
اسم الطالبة - الصف		الثامن /

1 في الرسم التخطيطي المجاور ، ما الطبقة الصخرية التي تكون عادةً هي الأحدث ؟



A. 1.
B. 2.
C. 3.
D. 4.

2 مبدأ أن الصخور القديمة توجد دائماً في الأسفل؟

A. مبدأ القاطع والمقطوع.
B. مبدأ التراكب.
C. مبدأ القطع الدخيلة.
D. مبدأ الاستمرارية الجانبية.

3 أي المبادئ ينص على أن طبقات الصخور متواصلة وتتوسع جانبياً في جميع الاتجاهات؟

A. مبدأ القاطع والمقطوع.
B. مبدأ التراكب.
C. مبدأ القطع الدخيلة.
D. مبدأ الاستمرارية الجانبية.

4 أي المبادئ ينص على أن الطبقات الرسوبية ترسبت أولاً وبشكل أفقي تحت تأثير الجاذبية؟

A. مبدأ القاطع والمقطوع.
B. مبدأ العامودية.
C. مبدأ الأفقية الأصلية.
D. مبدأ الاستمرارية الجانبية.

5 في الرسم التخطيطي المجاور ، ما الطبقة الصخرية التي الأقدم ؟

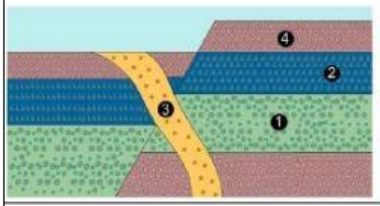

A. 1.
B. 2.
C. 3.
D. 4.

6 ما الترتيب الصحيح لطبقات الصخور من الأقدم إلى الأحدث في الرسم المجاور؟

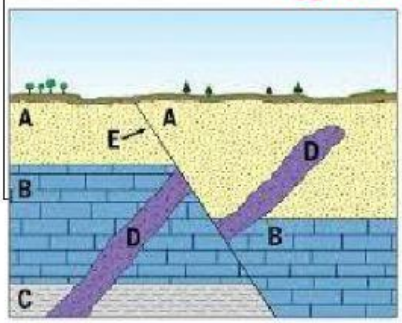

A. C , B , A , E , D
B. C , B , A , D , E
C. A , B , C , D , E
D. E , D , C , B , A

LIVEWORKSHEETS