E- LKPD

TEMA 2 : UDARA BERSIH BAGI KESEHATAN

Subtema 1 Cara Tubuh Mengolah Udara Bersih

Pembelajaran 2



Nama :

Kelas :

No. :

LIVEWORKSHEETS

KOMPETENSI DASAR DAN INDIKATOR

IPA : Sistem Pernapasan

No KD	Kompetensi	Indikator
3.2.	Menjelaskan organ pernapasan dan fungsinya pada hewan dan manusia, serta cara memelihara kesehatan organ pernapasan manusia	3.2.1 **Mengkategorikan** organ bagian dalam yang berperan dalam proses pernapasan 3.2.2 **Menganalisis** fungsi organ pernapasan manusia 3.2.3 **Menganalisis** proses pernapasan
4.2	Membuat model sederhana organ pernapasan manusia	4.2.1 **Membuat** bagan kerja organ pernapasan manusia

Bahasa Indonesia : Kalimat Tanya

No KD	Kompetensi	Indikator
3.2.	Mengklasifikasi informasi yang didapat dari buku ke dalam aspek: apa, di mana, kapan, siapa, mengapa, dan bagaimana	3.2.1 Menganalisis kata tanya yang tepat untuk menanyakan sesuatu.
4.2	Menyajikan hasil klasifikasi informasi yang didapat dari buku yang dikelompokkan dalam aspek: apa, di mana, kapan, siapa, mengapa, dan bagaimana menggunakan kosakata baku	4.2.1 Menuliskan kalimat tanya dengan kata apa, siapa, bagaimana dan mengapa

Tujuan Pembelajaran :

1. Peserta didik dapat **mengkategorikan** organ bagian dalam yang berperan dalam proses pernapasan
2. Peserta didik dapat **menganalisis** fungsi organ pernapasan manusia
3. Peserta didik dapat **menganalisis** proses pernapasan
4. Peserta didik dapat **membuat** bagan kerja organ pernapasan manusia
5. Peserta didik dapat **menganalisis** kata tanya yang tepat untuk menanyakan sesuatu
6. Peserta didik dapat **menuliskan** kalimat tanya dengan kata apa, siapa, bagaimana dan mengapa

LIVEWORKSHEETS

Setiap saat manusia menghirup dan menghembuskanudara. Tahukah kamu apa fungsi udara bagi manusia? Bagaimana manusia bisa bernapas? Untukmengetahui lebih jelasnya yuk simak dan lengkapi E-LKPD ini.

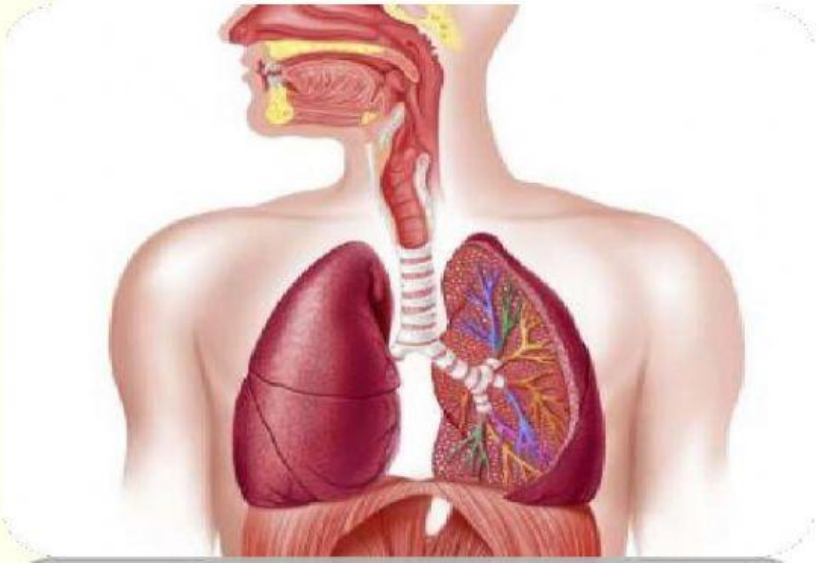

PETUNJUK PENGGUNAAN LKPD

1. Peserta didik menuliskan nama dan nomor
2. Peserta didik melengkapi LKPD
3. Peserta didik menyimak Video "Organ Pernapasan"
4. Peserta didik membuat kesimpulan materi pelajaran hari ini.

LIVEWORKSHEETS

Survey

Simak Video Organ Pernapasan berikut!

Temukan informasi dari video tersebut, setelah itu tuliskan pada diagram berikut.

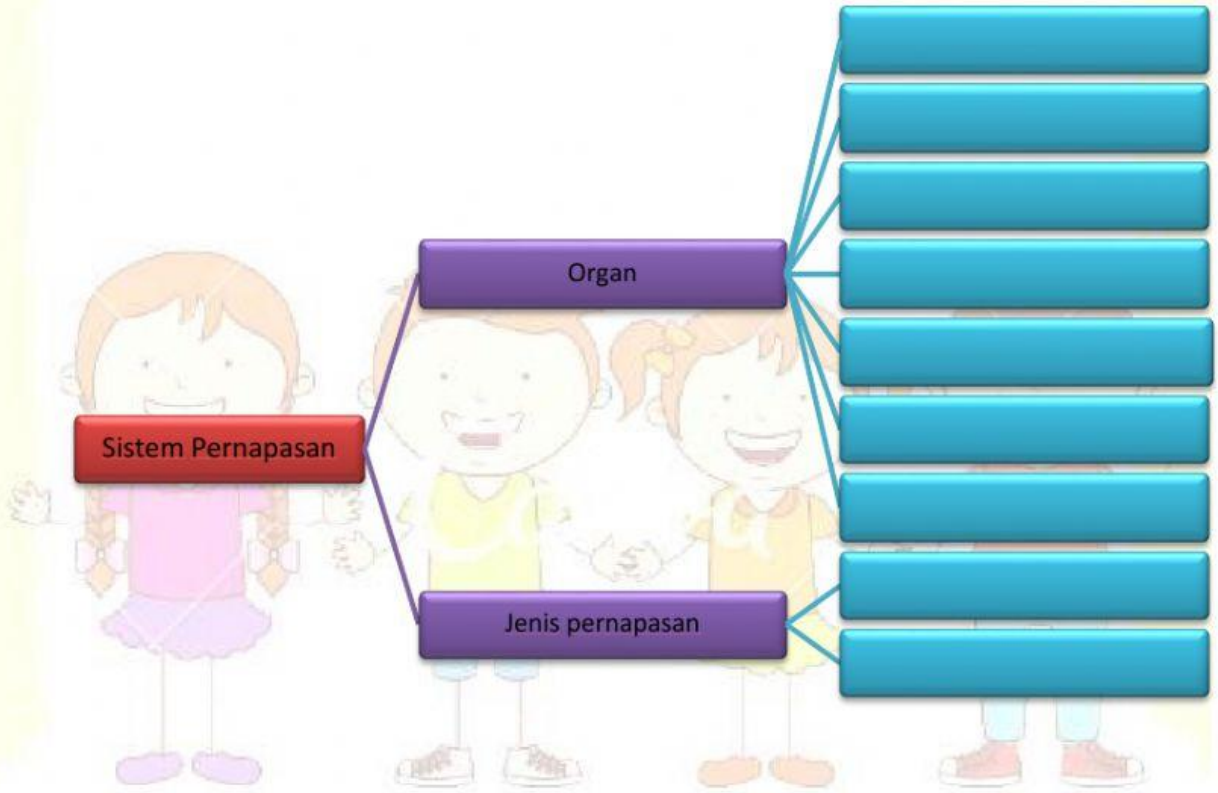

LIVEWORKSHEETS

Question

Setelah menyimak video diatas, hal apasaja yang kalian pikirkan dan ingin kalian tanyakan terkait dengan organ pernapasan manusia?

Tulis pertanyaan kalian dibawah ya, dengan kata tanya apa, mengapa dan bagaimana.

- ❑ .....
- ❑ .....
- ❑ .....
- ❑ .....
- ❑ .....
- ❑ .....

Read

Setelah menuliskan 3 pertanyaan, baca materi yang ada di bahan ajar dan buat catatan singkat mengenai organ pernapasan manusia untuk menjawab pertanyaan yang kalian buat. Pahami materi yang kalian baca.

Tuliskan catatan kalian

LIVEWORKSHEETS

Recite

Pasangkan nama organ dengan gambar organ pernapasan manusia di bawah ini! Kemudian lengkapilah tabel di bawahnya!

TENGGOROKAN	PARU-PARU	BRONKUS
KERONGKONGAN	HATI	BRONKIOLUS
RONGGA HIDUNG	ALVEOLUS	AORTA

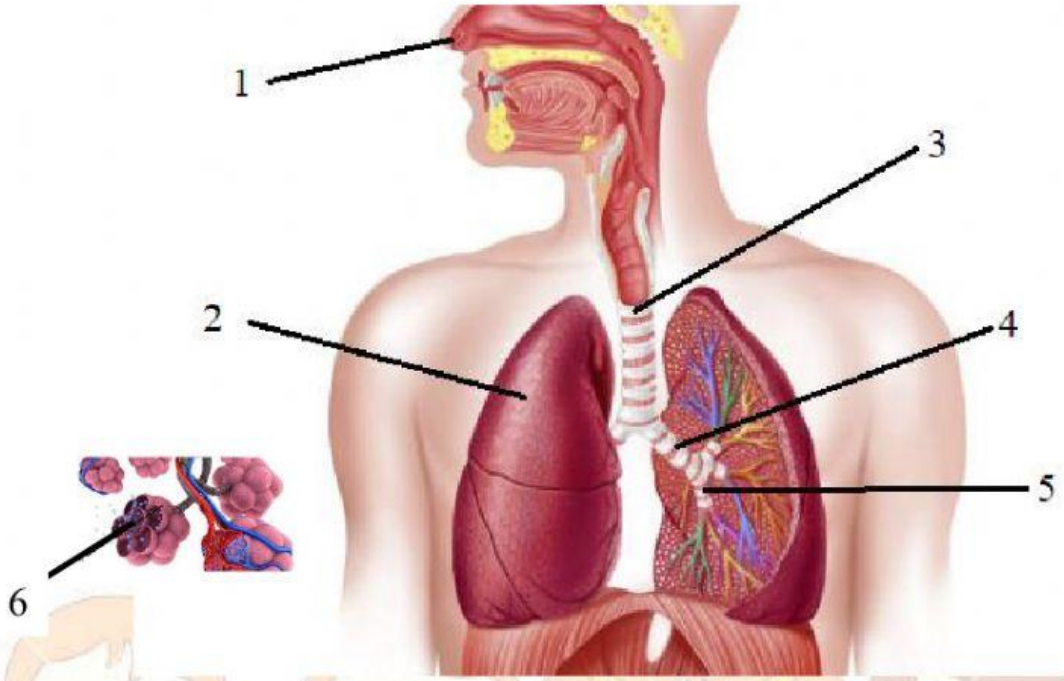

LIVEWORKSHEETS

Tabel organ pernapasan dan fungsinya

NO.	ORGAN	FUNGSI
1.		
2.		
3.		
4.		
5.		
6.		

LIVEWORKSHEETS

Review

Setelah kalian mempelajari materi hari ini buatlah bagan kerja organ pernapasan. Kolom di bawah ini bisa membantumu untuk menuliskan keterangan yang harus kalian tuliskan!

Gambar

Susunan organ pernapasan manusia yaitu

Kerja organ pernapasan:

Reflect

LIVEWORKSHEETS