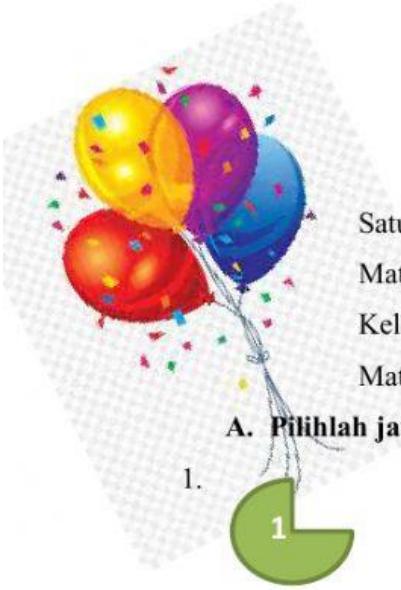

LEMBAR KERJA PESERTA DIDIK (LKPD)

Satuan Pendidikan : SDN 3 Babakanlosari

Mata Pelajaran : Matematika

Kelas / Semester : IV / Genap

Materi Pokok : Segi Banyak Beraturan dan Tidak Beraturan

A. Pilihlah jawaban yang paling benar

1.

   Yang bukan merupakan bangun segi banyak adalan….

   A. 1 dan 3 B. 2 dan 4 C. 3 dan 4 D. 2 dan 3

2. 1). Sisinya Sama Panjang

   2). Sudutnya Tidak Sama Besar

   3). Bentuknya Cembung

   4). Sisinya Tidak Sama Panjang

   Yang merupakan ciri segi banyak beraturan adalah ….

   A. 1 dan 2 B. 2 dan 3 C. 3 dan 4 D. 1 dan 3

3. Yang merupakan ciri segi banyak tidak beraturan adalah ….

   A. Sisinya sama panjang C. Sudutnya sama besar

   B. Bentuknya cembung D. Sisinya tidak sama panjang

4. Segi banyak yang memiliki 5 sisi adalah ….

   A.

   B. 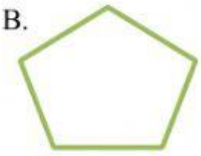

   C. 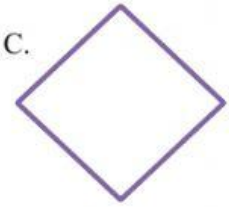

   D. 

5. Segi banyak berikut disebut ….

   

   A. Pentagon

   B. Heksagon

   C. Oktagon

   D. Dekagon

LIVEWORKSHEETS

B. **Tentukanlah bangun di bawah ini termasuk kedalam segi banyak beraturan atau tidak beraturan !**

1.

2.

3.

4.

5.

LIVEWORKSHEETS