Profesora: Sara Alamos S

Prueba de Historia

NOTA:

Nombre: _____ Curso: 3ero Básico.
Fecha: 10 / 05/ 2021 Puntaje Ideal: 33 /Puntaje Real: _____

Instrucciones:

- **Lea atentamente todas las indicaciones.**
- **Responda solamente lo que se le pregunta y en el lugar destinado para ello.**
- **Coloca la alternativa correcta en cada uno de los cuadrados que corresponde.**

Objetivos:

I.- Distinguir los continentes y océanos que conforman el planeta Tierra
Ubicar y reconocer líneas imaginarias del planeta Tierra

1.- Observa el siguiente globo terráqueo y traslada las etiquetas donde corresponda (9 puntos).

Círculo Polar Ártico | **Círculo Polar Antártico** | **Eje Terrestre** | **Meridiano de Greenwich** | **Línea del Ecuador**

Trópico de Cáncer | **Trópico de Capricornio** | **Polo Norte** | **Polo sur**

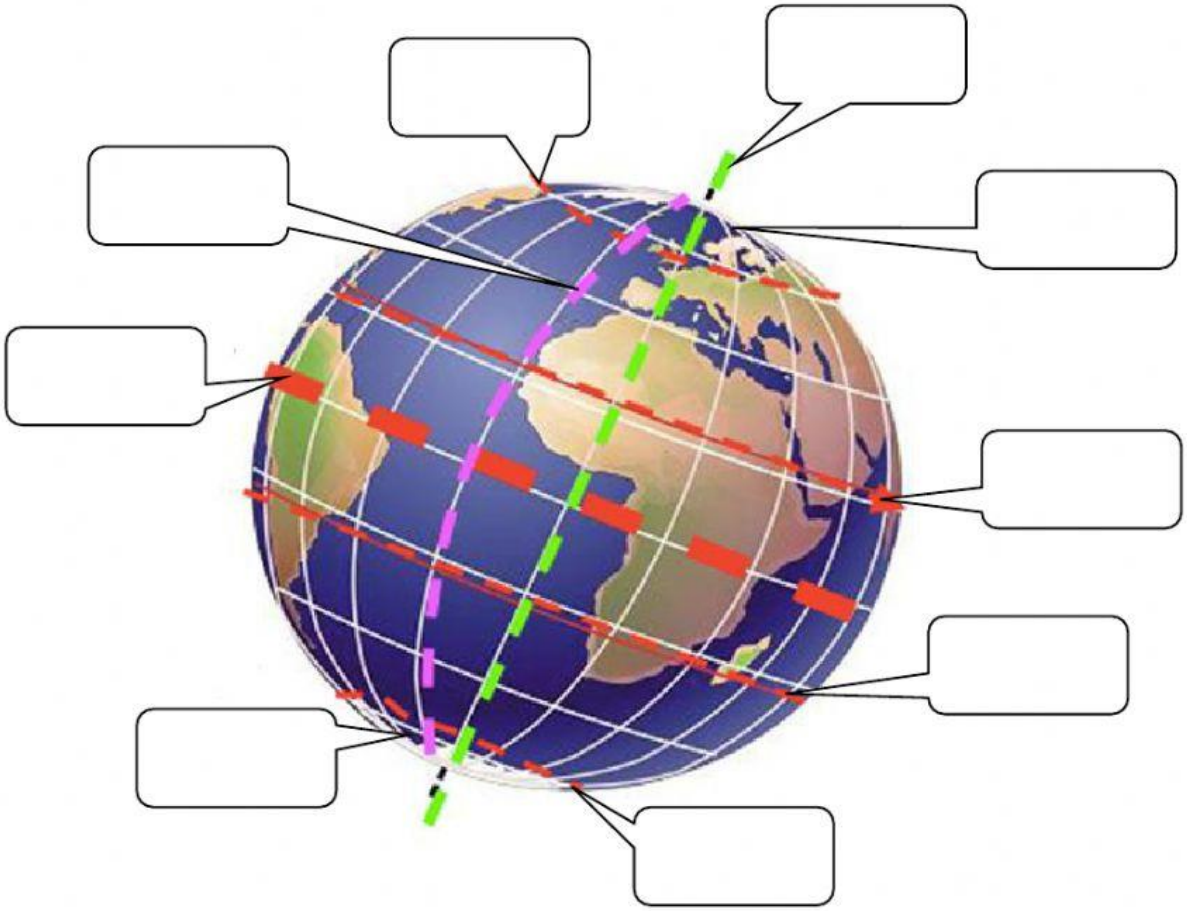

2.- Traslada los océanos y Continentes en el planisferio según corresponda (11 puntos).

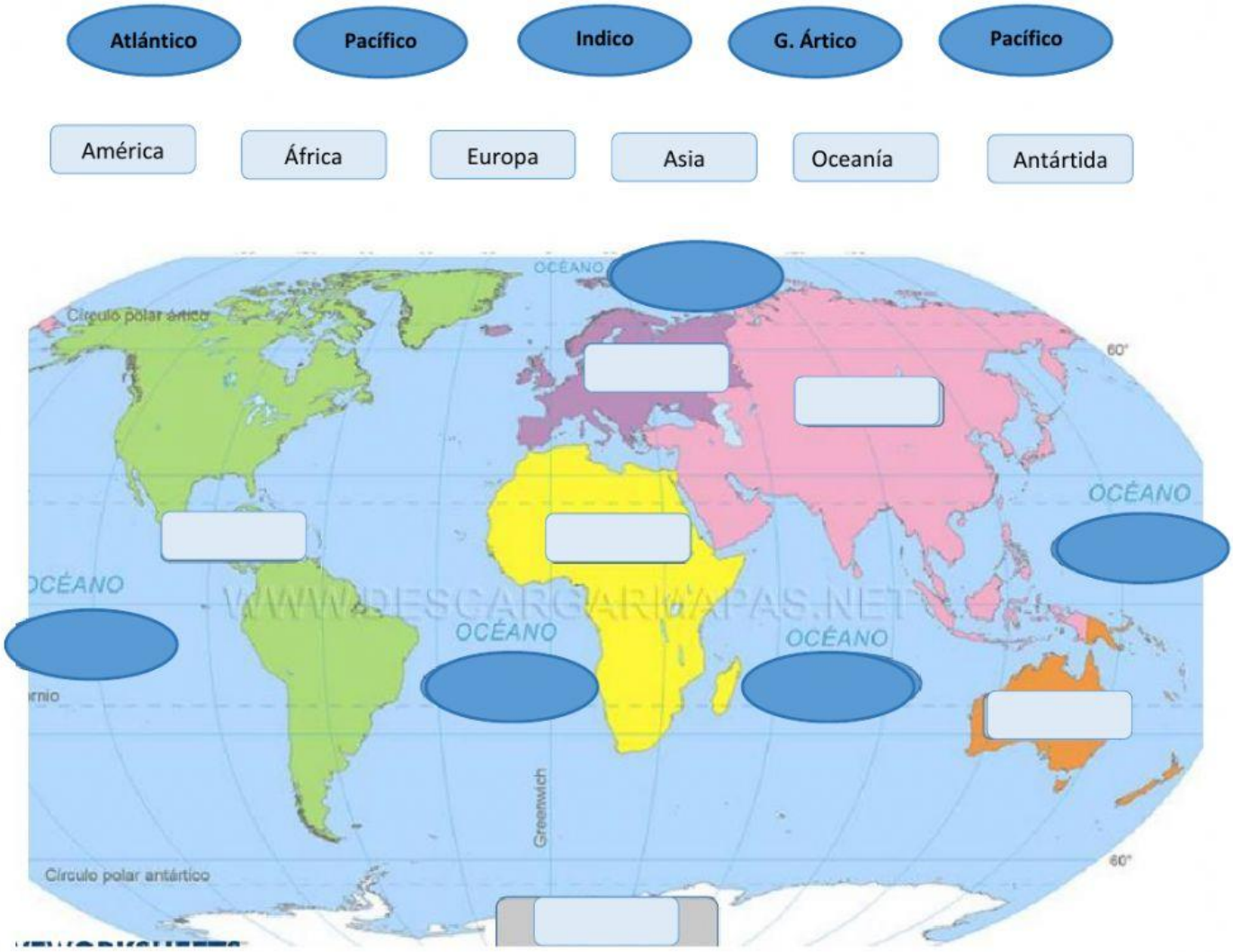

3.-Completa según corresponda (10 puntos)

.-

Recurso 2 Planisferio

El siguiente planisferio muestra los océanos y continentes de la Tierra.

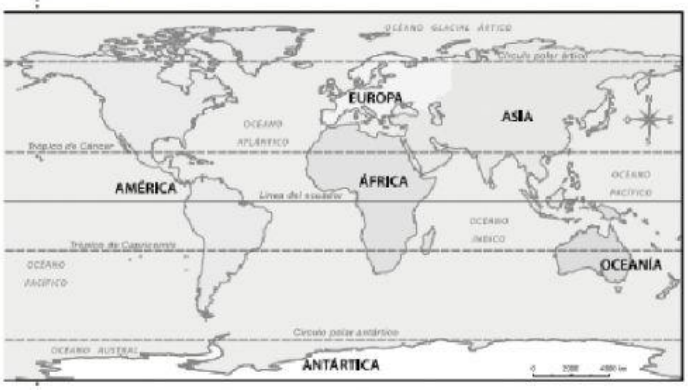

a. ¡Hola! Mi nombre es Luciano y vivo en Chile, que está en el continente llamado _____. Este es el segundo continente más grande. Al oeste se encuentra el océano _____ y al este el océano _____. (6 puntos)

b. ¡Bonjour! Mi nombre es Amelie y vivo en Francia, que está en Europa. Es un continente pequeño, respecto de los demás, pero tiene muchos países. Limita al oeste con el océano _____ y al norte con el océano _____. (4 puntos)

4.- De acuerdo con lo que puedes observar en el gráfico de barras, completa el relato mencionando **más o menos** población. (3 puntos).

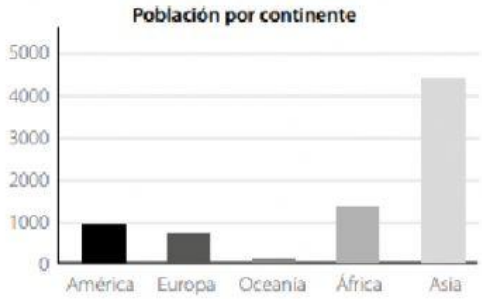

a. Asia tiene _____ que América. Pero, América tiene _____ que Oceanía. Además, podemos decir que Europa tiene _____ que África, pero Europa tiene _____ que Oceanía.

b. ¿Por qué la Antártica no aparece en el gráfico de población por continentes? (1 pts.)

_____

_____

¡Mucho éxito!